2024 - 2025

SÜREÇ İZLEME -2

8. SINIF

SAYISAL BÖLÜM

B KİTAPÇIK TÜRÜ

Adı ve Soyadı : .....

Sınıfı / Şubesi : .....

Öğrenci Numarası : .....

DERS ADI	SORU SAYISI	TOPLAM SORU SAYISI	SINAV SÜRESİ (DAKİKA)
MATEMATİK	20	40	80
FEN BİLİMLERİ	20		

ÖĞRENCİLERİN DİKKATİNE!

1. Sınıf öğrenci yoklama listesinde belirtilen sınıfta ve sıra numarasında oturunuz.
2. Cevap kâğıdındaki kimlik bilgilerinin doğruluğunu kontrol ediniz. Bilgiler size ait değilse veya cevap kâğıdı kullanılamayacak bir durumdaysa sınav görevlilerine bildiriniz.
3. Kitapçık türünü cevap kâğıdındaki ilgili alana kodlayınız.
4. Cevap kâğıdı üzerindeki kodlamaları kurşun kalemle yapınız.

CamScanner ile tarandı

1. Aşağıda dikdörtgen şeklindeki kırmızı ve mavi renkli kartonlar ile kare şeklindeki sarı renkli karton iki farklı durumda yerleştiriliyor.

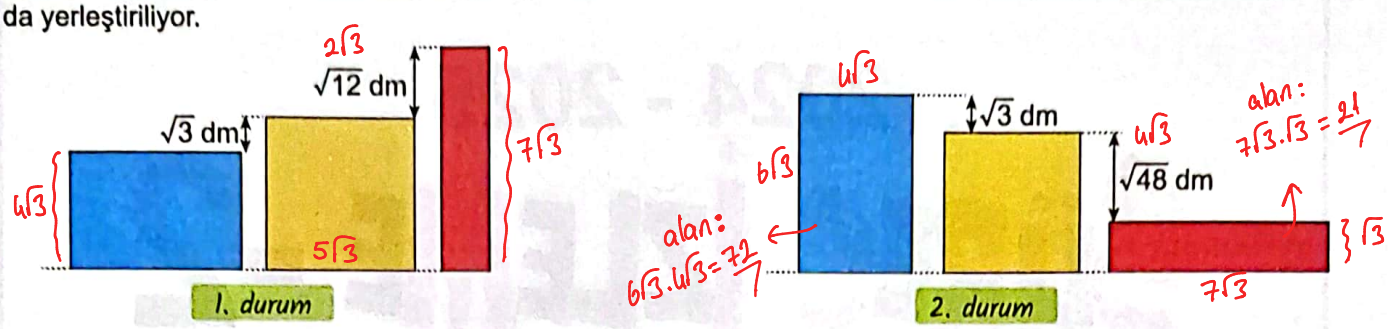

Sarı kartonun ön yüz alanı 75 dm^2 olduğuna göre mavi kartonun ön yüz alanı, kırmızı kartonun ön yüz alanından kaç desimetrekare büyüktür?

A) 54 B) 51 C) 48 D) 42

2. Bir gülle atma yarışmasında atılan güllenin düştüğü yerin başlangıç çizgisine metre cinsinden uzaklığı x ise yarışmacının puanı x sayısının karekökünün eşit olduğu tam sayıya ya da en yakın olduğu tam sayı değerine eşit olmaktadır.

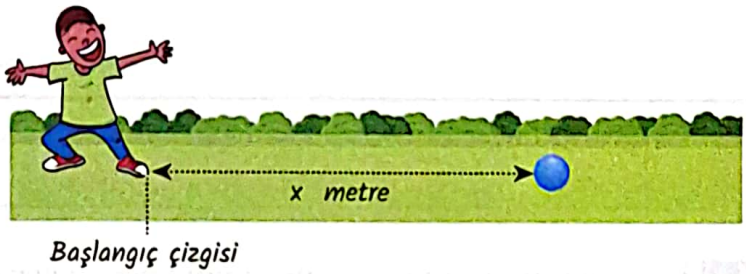

Tuncay'ın yaptığı üç atışta güllenin düştüğü yerlerin başlangıç çizgisine olan uzaklıkları 16 m, 22 m ve 43 m'dir.

Buna göre Tuncay'ın bu üç atışta aldığı puanların toplamı kaçtır?

A) 11 B) 12 C) 15 D) 16

3. Aşağıda verilen ABCD karesinin içine 8 adet özdeş mavi renkli kare, 5 adet özdeş yeşil renkli kare, 2 adet özdeş kırmızı renkli dikdörtgen ve 4 adet turuncu renkli dikdörtgen çizilmiştir.

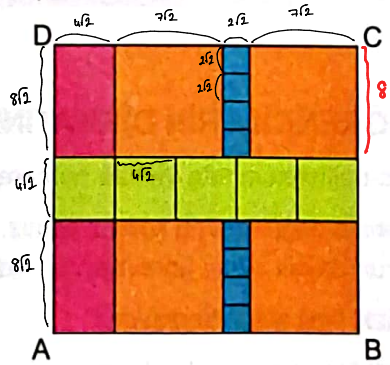

ABCD karesinin alanı 800 br^2 ise turuncu renkli dikdörtgenlerden birinin alanı kaç br^2'dir?

A) 108 B) 110 C) 112 D) 124

CamScanner ile tarandı

4. A takımında bulunan basketbolcuların bazılarının forma numaraları aşağıda verilmiştir.

Bu basketbolcuların her biri bir sezonda forma numaralarının asal çarpanlarının toplamı kadar maçta oynamıştır.

Bir sezonda bir takım 12 maç yaptığına göre aşağıda forma numaraları verilen basketbolculardan hangi ikisi bir sezonda diğerlerinden daha fazla birlikte oynamıştır?

A) 35 ile 54 B) 30 ile 35 C) 35 ile 50 D) 48 ile 54

5.

ekok(40,56)=280

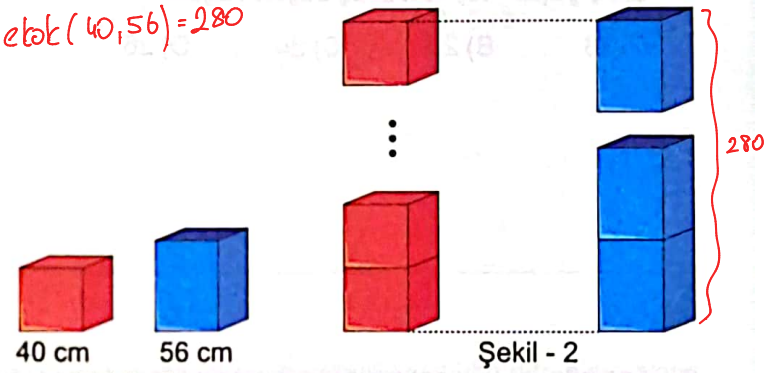

Buna göre, kutulara konulan toplam kitap sayısı en az kaçtır? → 105+100=205

A) 200 B) 205 C) 210 D) 215

$\frac{280}{40}$ = 7 kırmızı kutu → 7.15 = 105 kitap

$\frac{280}{56}$ = 5 mavi kutu → 5.20 = 100 kitap

6. Bir yolun sol tarafında kırmızı bayraklar, sağ tarafında mavi bayraklar sıralanmıştır. Bu bayraklar görseldeki gibi sırasıyla numaralandırılırken ardışık her iki bayrak arası 5 metredir.

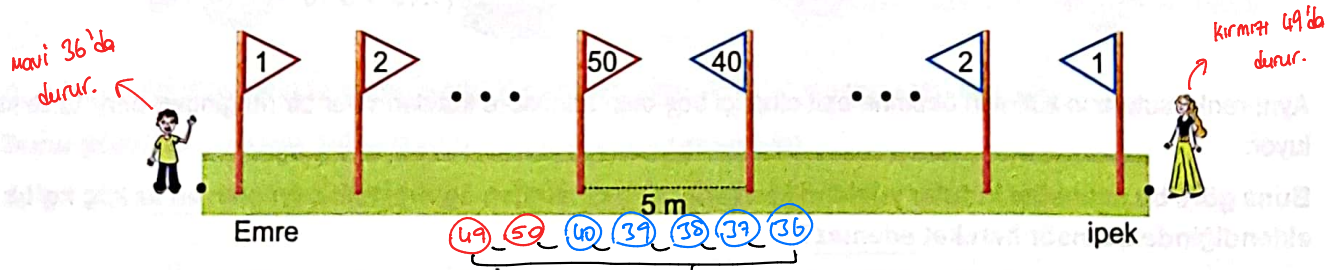

Yolun sol ucundan Emre, sağ ucundan İpek birbirine doğru ilerlerken ikiside üzerinde tam kare sayının yazılı olduğu farklı renkteki bayrakların yanında duruyorlar. → mesafe 30 metre

Buna göre bu kişilerin durdukları yerlerin arasındaki mesafe en az kaç metredir?

A) 30 B) 35 C) 40 D) 45

CamScanner ile tarandı

7. Aşağıda dört katlı otoparkın her katında bulunan araç sayıları verilmiştir.

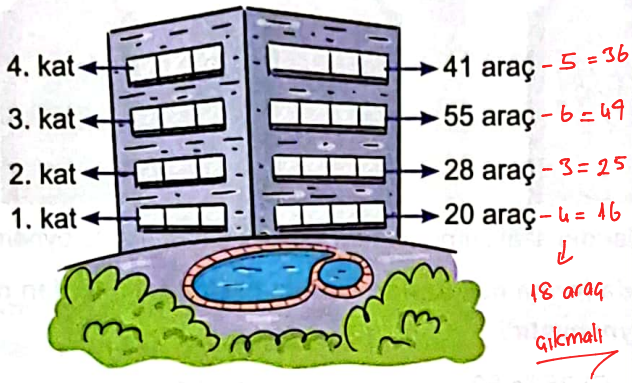

Bu otoparktan en az sayıda araç çıktığında her katta kalan araç sayısı bir tam kare sayı olmaktadır.

Buna göre sadece araç çıkışı olan bu otoparktan çıkış yapan toplam araç sayısı kaçtır?

A) 18 B) 20 C) 24 D) 26

8. Aşağıda verilen kartların üzerine bazı eşitlikler yazılmıştır.

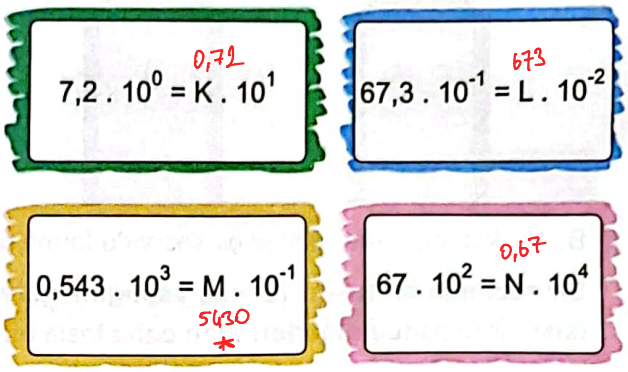

Buna göre K, L, M ve N sayılarından hangisi en büyüktür?

A) K B) L C) M D) N

9. Aşağıda bir yük asansörü ve bu asansörde taşınacak olan kutuların birer tanesinin kilogram cinsinden kütleleri verilmiştir.

400 − 381 = 19kg tam kapasite → 20kg koyarsak hareket edemez.

10 tane

127,1 — 12,71 — $(1.10^1 + 2.10^0 + 7.10^{-1} + 1.10^{-2})$ kg

122,9 — 12,29 — $(1.10^1 + 2.10^0 + 2.10^{-1} + 9.10^{-2})$ kg

+ 131 — 13,1 — $(1.10^1 + 3.10^0 + 1.10^{-1})$ kg

381 kg

Aynı renkli kutuların kütleleri birbirine eşit olup içi boş olan asansöre kutuların her bir renginden onar tane konuluyor.

Buna göre bu asansöre kutular yüklendikten sonra kg cinsinden ağırlığı tam sayı olan en az kaç kg'lık yük eklendiğinde asansör hareket edemez?

A) 16 B) 17 C) 19 D) 20

CamScanner ile tarandı

10. Ahmet 2^5 adet özdeş kırmızı karton alıp bunların her birini 3^5 adet parçaya ayırıyor.

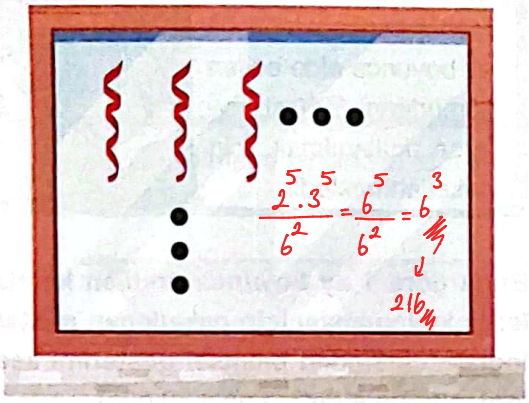

Parçaların her birinden birer cam süsü yapıp okulun her bir camına 6^2 tane yapıştırıyor.

Buna göre bu süslerin tamamı ile Ahmet yeterli sayıda bulunan okul camının kaç tanesini süsleyebilir?

A) 81 B) 128 C) 216 D) 243

11. Aşağıdaki pulların ön yüzünde birer kareköklü ifade yazmaktadır.

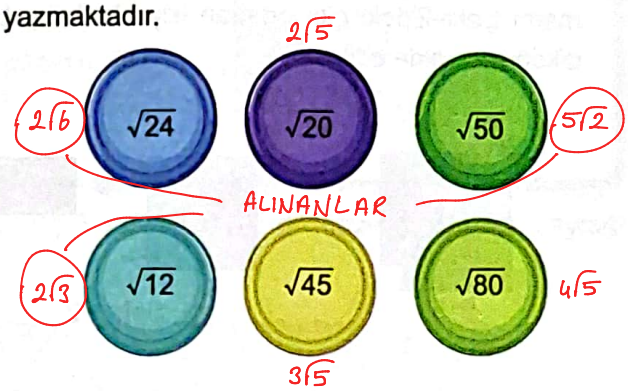

Feyza bu pullardan üç tanesini alıp üzerindeki sayıları çarptığında sonucu bir doğal sayı bulmaktadır.

Buna göre geriye kalan pullarda yazan sayıların toplamı kaçtır? $2\sqrt{5}+3\sqrt{5}+4\sqrt{5}=9\sqrt{5}$

A) $10\sqrt{5}$ B) $9\sqrt{5}$

C) $8\sqrt{5}$ D) $6\sqrt{5}$

12. Aşağıdaki dronların her birine birer kod verilmiştir. Bu kodların karekökleri $a\sqrt{b}$ şekinde yazıldığında a'nın alabileceği en büyük doğal sayı değeri kilometre cinsinden menzilini, b'nin en küçük doğal sayı değeri saat cinsinden havada kalabileceği maksimum süreyi göstermektedir.



Aziz bu dronlardan havada kalma süresi diğerlerine göre en fazla olanını satın almıştır.

Buna göre Aziz'in satın aldığı dronun menzili kaç kilometredir?

A) 4 B) 5 C) 6 D) 7

CamScanner ile tarandı

13. Bir kenarı 9^4 birim olan özdeş 3^5 adet karenin tamamı Şekil-2'deki gibi ortadan ikiye katlanıp birer dikdörtgen elde ediliyor.

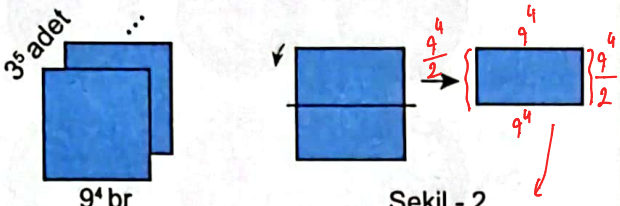

Şekil - 1 Şekil - 2

çevre → $\frac{9^4}{2}+\frac{9^4}{2}+9^4+9^4=3.9^4$
$=3^9$

Buna göre elde edilen tüm dikdörtgenlerin çevre uzunlukları toplamı kaç birimdir?

A) 3^{13} B) 3^{14} C) 3^{15} D) 3^{16}

toplam çevre $3^9.3^5=3^{14}$

14. Bir kömür işletmesinde her gün $0,5 \cdot 10^5$ kg kömür çıkarılmaktadır. 1 ay boyunca elde edilen kömürlerin %50'si evlerde kullanılmak yor,ısı için paketlenmektedir.

Buna göre 1 ay boyunca üretilen kömürün evlerde kullanılması için paketlenen miktarının kilogram cinsinden bilimsel gösterimi aşağıdakilerden hangisidir? (1 ay = 30 gün)

A) $7,5 \cdot 10^5$ B) $7,5 \cdot 10^4$
C) $1,5 \cdot 10^5$ D) $1,5 \cdot 10^4$

$\frac{0,5.10^5.30}{2}=\frac{15.10^5}{2}=7,5.10^5$

15. Bir oyuncakçıda yeterli sayıda bulunan aynı çeşit oyuncaklar birbiriyle özdeştir. Bu oyuncaklardan ikisinin birer ucu aynı hizaya getirildiğinde oluşan uzunlukların farkı Şekil-1'de verilmiştir.

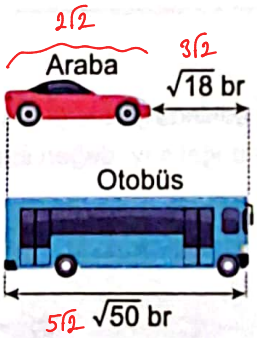

Şekil - 1

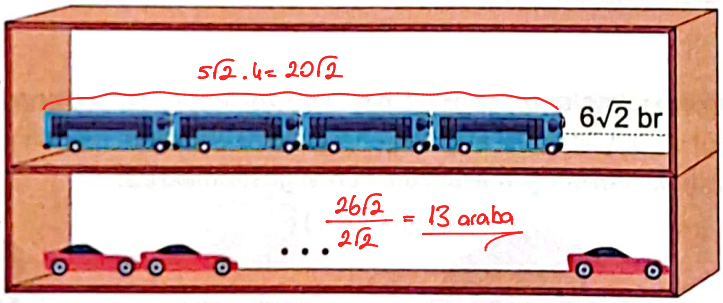

Şekil - 2

$26\sqrt{2}$

Eşit uzunluktaki iki raftan 1.sine 4 otobüs konulunca rafta kalan boşluğun uzunluğu $6\sqrt{2}$ birimdir.

Buna göre 2. rafa tek sıra hâlinde en fazla kaç tane oyuncak araba konulur?

A) 13 B) 12 C) 11 D) 10

CamScanner ile tarandı

16.

Bilgi: Bir ikizkenar dik üçgenin kenar uzunlukları arasında yandaki ilişki bulunmaktadır.

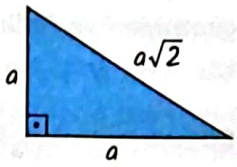

Kerem uzunluğu desimetre cinsinden tam sayı olan bir ipe özdeş 5 adet ikizkenar dik üçgen şeklindeki bayrağı görseldeki gibi asıyor.

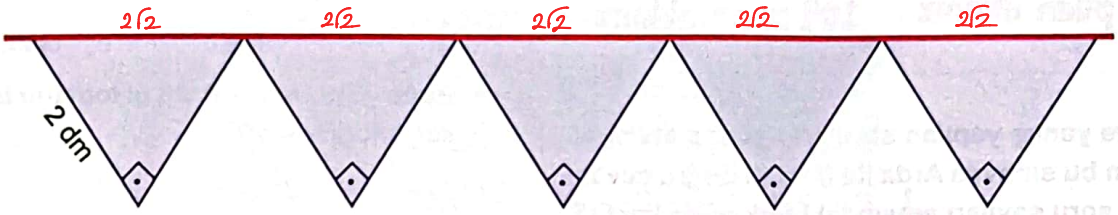

Buna göre bu ipin uzunluğu en az kaç desimetredir?

A) 13 B) 14 C) 15 D) 16

10√2'den büyük en küçük sayı?

√200 → 15 dm

17. Aşağıda uzunlukları 2^{11} birim ve 2^{13} birim olan iki demir çubuk ile her biri kendi içinde eşit olan dört ayaklı yeşil ve kırmızı tabureler yapılıyor.

$\frac{2^{11}}{2^5} = 2^6$ çubuk → $\frac{2^6}{4} = 16$ yeşil

$\frac{2^{13}}{2^8} = 2^5$ çubuk

$\frac{2^5}{4} = 8$ kırmızı

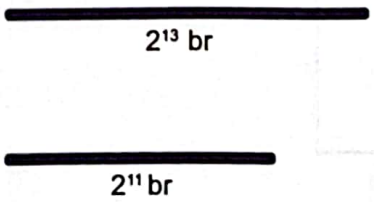

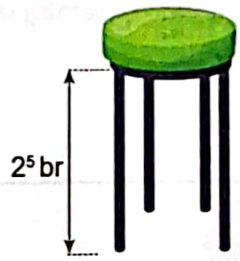

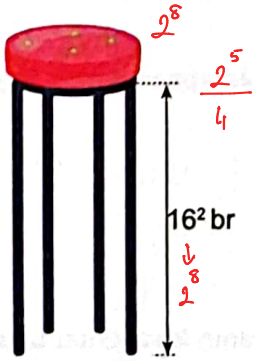

Kısa demir çubuk yeşil taburelerin yapımında, uzun demir çubuk kırmızı taburelerin yapımında kullanılıyor.

Tüm demir çubuklar taburelerin ayaklarının yapımında kullanıldığına göre, yapılan yeşil tabure sayısı kırmızı tabure sayısından kaç fazladır? 16 − 8 = 8

A) 4 B) 6 C) 7 D) 8

CamScanner ile tarandı

18. Her bir sorunun puan değeri eşit ve doğal sayı olan bir sınava giren Mert ve Arda sırasıyla 80 ve 104 puan almıştır. ebob(80,104) = 8

Adı Soyadı	Adı Soyadı
Mert $\frac{80}{8} = 10$ soru	Arda $\frac{104}{8} = 13$ soru
80 puan aldınız	104 puan aldınız

FARK 3

Boş ve yanlış yapılan soruların puana etkisi olmayan bu sınavda Arda ile Mert'in doğru cevapladığı soru sayıları arasındaki fark en az kaçtır?

A) 3 B) 5 C) 7 D) 9

1 soruya verebileceğimiz en yüksek puan değerini vermeliyiz.

19. Aşağıda kg cinsinden kütleleri verilen toplara üslü ifadeler ile birer kod verilmiştir.

KOD	KOD	KOD	KOD	KOD
$\frac{1}{16}$ 2^{-4}	16 $(-2)^4$	-16 -4^2	$-\frac{1}{16}$ -2^{-4}	$-\frac{1}{16}$ $(-16)^{-1}$
5 kg	2 kg	7 kg	1 kg	3 kg

Onur kod değerleri birbirine eşit olan topları alıyor.

Buna göre Onur'un aldığı topların toplam kütlesi kaç kilogramdır? 1 + 3 = 4

A) 4 B) 5 C) 6 D) 9

20.

Damla dikdörtgen şeklindeki bir masanın üzerine 6 adet kare biçimindeki kartı aralarında $\sqrt{8}$ birim olacak şekilde görseldeki gibi yerleştiriyor.

$4\sqrt{2} + 2\sqrt{2} + 4\sqrt{2} + 2\sqrt{2} + 4\sqrt{2} + 2\sqrt{2} + 4\sqrt{2} = 22\sqrt{2}$ uzun

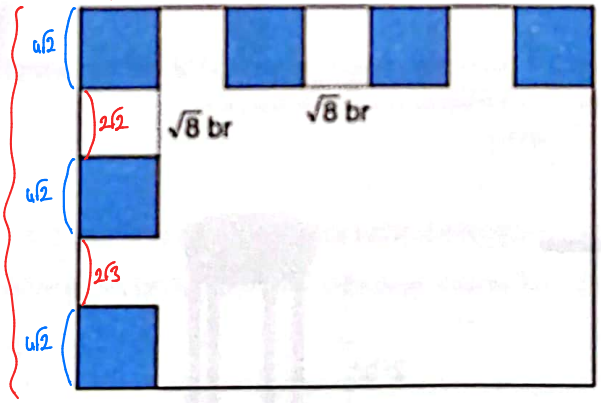

kısa $16\sqrt{2}$

Masanın kısa kenar uzunluğu $16\sqrt{2}$ birim olduğuna göre, masanın uzun kenarı kısa kenarından kaç birim uzundur? $22\sqrt{2} - 16\sqrt{2} = 6\sqrt{2}$

A) $4\sqrt{2}$ B) $5\sqrt{2}$ C) $6\sqrt{2}$ D) $8\sqrt{2}$

CamScanner ile tarandı

1. *Bilgi: Kısa mesafe koşu yarışmalarında rekor kayıtlarında rüzgârın yönü ve sürati dikkate alınır. Rüzgâr, yarışmacının koşu yönünde ve 2 m/s ve üzerinde süratle eserse yarışmacının yarışı tamamlama süresi rekor kaydına işlenmez, ancak 2m/s'nin altındaki süratlerde ya da yarışmacının hareket yönüne zıt yönde esen rüzgârda rüzgârın süratine bakılmaksızın yarışmacının yarışmayı tamamlama süresi rekor kaydına işlenir.*

Aşağıda K ve L bölgeleri arasında kalan bir koşu pisti ile bu pistte farklı zamanlarda 100 m mesafeyi koşan sporcular ve sporcuların yarışmaları ile ilgili bilgiler yer almaktadır.

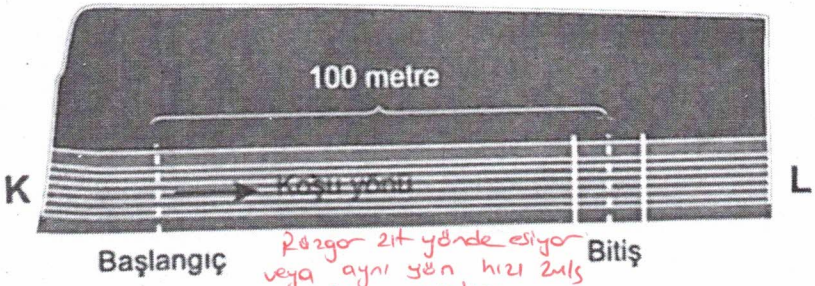

Rüzgar zıt yönde esiyor veya aynı yön hızı 2m/s azdır.

Kayıt yapıldıysa rüzgar 2m/s sürütünda veya yarışmacıyla zıt yönde esiyor.

1. koşu	2. koşu	3. koşu
Sporcu: X Rüzgâr yönü: K'den L'ye Derecesi: 10 saniye 20 saliseo Rekora kayıt yapıldı.	Sporcu: Y Rüzgâr yönü: L'den K'ye Derecesi: 10 saniye 12 salise Rekora kayıt yapıldı.	Sporcu: Z Rüzgâr yönü: K'den L'ye Derecesi: 9 saniye 50 salise Rekora kayıt yapılmadı.

Yarışmacı ile rüzgarın hızı aynı yönde ve 2m/s de fazla ki kayıt olmalı

Buna göre verilenlerden yararlanarak aşağıda yapılan yorumlardan hangisinin doğruluğu kesindir?

3. koşuda rüzgar 2m/s süratten fazla olmuş olabilir.

A) K ve L bölgeleri arasındaki atmosfer basıncı farkı en fazla 1. koşunun yapıldığı zamanda gerçekleşmiştir.

B) K bölgesinin sıcaklığı 2. koşunun yapıldığı sırada en yüksek değerine ulaşmıştır. Basınç farkından, sıcaklıklar farklı olabilir. L'ndan sıcak olabilir

C) K ve L bölgeleri arasında sıcaklık farkı 3. koşunun yapıldığı zaman 1. koşunun yapıldığı zamana göre daha fazla olmuştur. 3. koşu daha kısa sürede olduysa, yarışmacı ile rüzgarın yönü aynı ve rüzgarın hızı 2m/s fazla olmalı ki kayıt yapılmasın.

D) K ve L bölgeleri arasında atmosfer basıncı farkı 2. koşunun yapıldığı zaman 1. koşunun yapıldığı zamana göre daha az olmuştur.

Bölgeler arasında basınç farkı ne kadar fazlaysa rüzgarın şiddetti o kadar fazla olur.

2. **Hücrede bulunan kalıtımda görevli yapıların görsel üzerinde gösterimleri ile ilgili olarak aşağıdakilerden hangisi doğru olabilir?**

A)

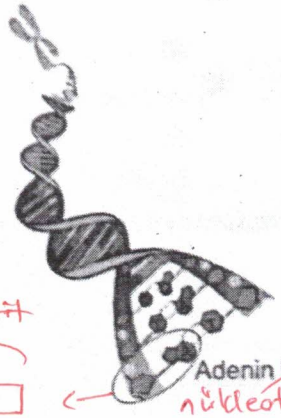

Nükleotit

B)

DNA'nın bir parçasıdır Görev birimidir

C)

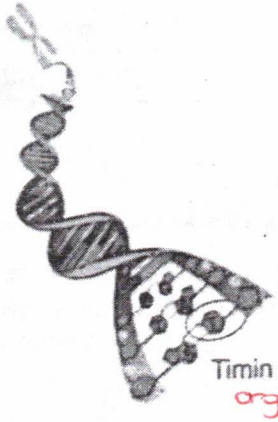

D)

Kromozom

CamScanner ile tarandı

3. Aşağıda X ile temsil edilen DNA molekülünün hatasız bir şekilde kendisini eşlemesi sonunda oluşan Y ve Z moleküllerinin her bir ipliğinde bulunan nükleotid sayılarından bazıları hakkında bilgi verilmiştir.

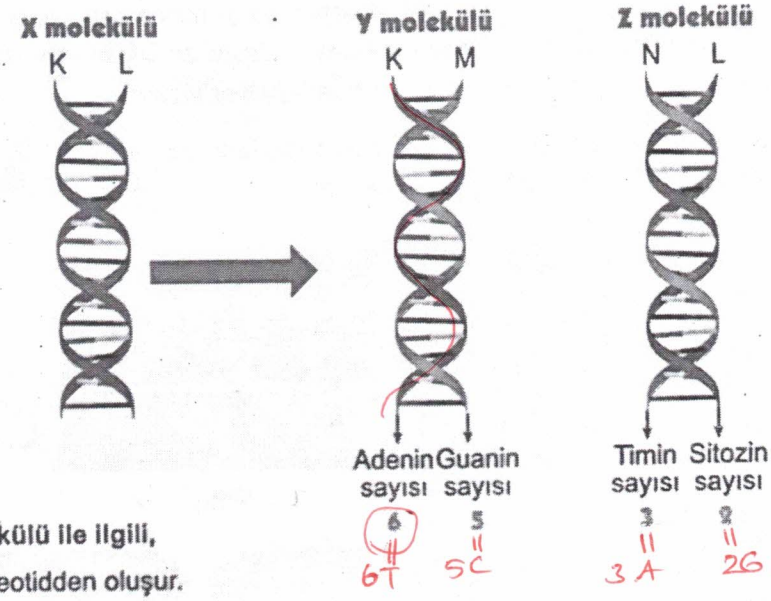

A=T ⇒ 9
G≡C ⇒ 7
Hepsi için ayrı ayrı düşünürsek toplam 32 adet nükleotid bulunur.

Buna göre X molekülü ile ilgili,

I. Toplam 32 nükleotidden oluşur.

II. İçerdiği adenin nükleotidi sayısı, Y molekülünün içerdiği sitozin nükleotidi sayısından fazladır. A=9 C=7

III. İçerdiği guanin nükleotidi sayısı, Z molekülünün içerdiği sitozin nükleotidi sayısından fazladır. → eşittir.

ifadelerinden hangileri doğrudur?

A) Yalnız I B) I ve II C) II ve III D) I, II ve III

4. Bir DNA molekülü kesiti ve bu molekülde yer alan nükleotid çeşitleri yapılarında bulunan maddeler ile şekilde gösterilmiştir.

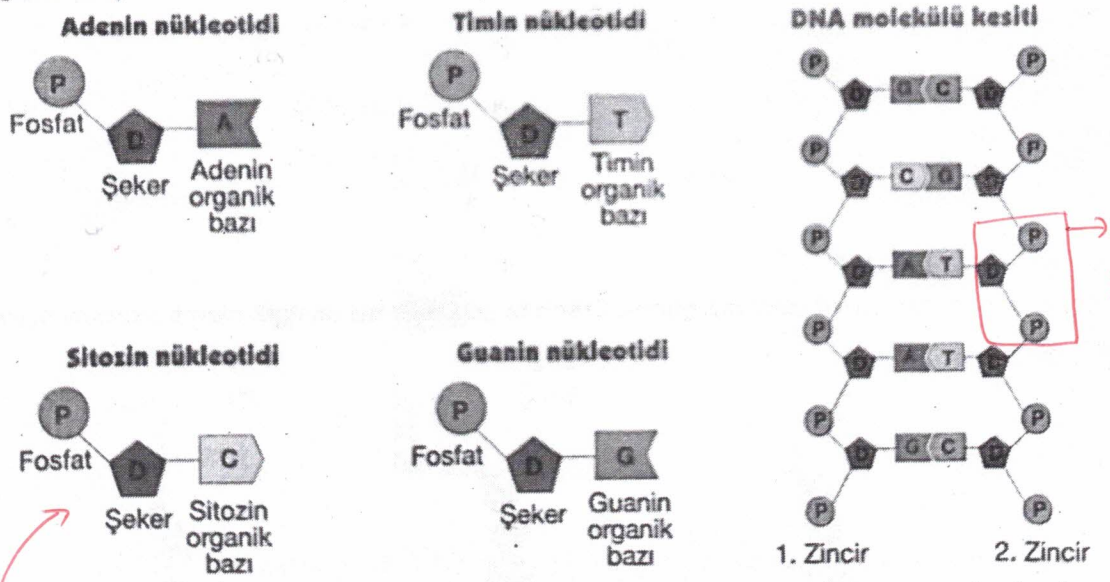

Tek zincirde nükleotitler şeker ve fosfatla birbirine bağlan

Buna göre görseller ve verilen bilgilerden yararlanarak aşağıda yapılan yorumlardan hangisi yanlıştır?

A) Nükleotidlerin isimleri içerdikleri organik baza göre değişir.

B) DNA molekülünde nükleotidler belirli bir kurala göre karşılıklı eşleşir. A=T / G≡C

C) DNA molekülünün bir zincirinde nükleotidler birbirlerine fosfat ve şeker moleküllerinden bağlanır.

D) DNA molekülünün bir zincirinde bulunan adenin nükleotidi sayısı timin nükleotidi sayısına eşit olmak zorundadır. Karşılıklı zincirde desaydi doğru olurdu ama tek zincirde sayıları eşit olmak zorunda değil.

CamScanner ile tarandı

5. *Bilgi: Mantarlar ılık, karanlık ve nemli ortamları sever bu yüzden doğrudan güneş ışığı alan yerlerde çok az bulunabilirler.*

Bir araştırma ekibi ağaçların gövdelerinde yetişen mantarlar üzerinde çalışma yapmak için Dünya haritası üzerinde aşağıda belirtilen noktalarda belirtilen tarihlerde araştırma yapacaktır.

Buna göre araştırma ekibinin belirtilen tarihlerde belirtilen konumlarda yer yüzeyine dik bir şekilde uzanan ağaçların gövdelerinde yapacakları araştırma ile ilgili aşağıdakilerden hangisi yanlıştır?

A) Kazakistan'da yapacakları araştırmada ağaçların kuzey cephesinde daha fazla mantar bulmaları beklenir.

B) Nijerya'da yapacakları araştırmada ağaçların güney cephesinde daha fazla mantar bulmaları beklenir.

C) Bolivya'da yapacakları araştırmada ağaçların kuzey cephesinde daha fazla mantar bulmaları beklenir.

D) Yeni Zelanda'da yapacakları araştırmada ağaçların güney cephesinde daha fazla mantar bulmaları beklenir.

6. Bir öğretmen öğrencilerinden sınıfa getirdiği Dünya küresi üzerine hazırladığı tarih kartlarını yarım kürelere göre yaşanan mevsimleri temsil eden aşağıdaki farklı renk ve şekilde başlıklara sahip raptiyeler ile tutturmalarını istemiştir.

Raptiyelerin üstten görünümleri ve temsil ettikleri mevsimler şu şekildedir:

▲ Kış ● Yaz ■ Sonbahar ● İlkbahar

Buna göre aşağıdaki uygulamalardan hangisi tamamen doğrudur?

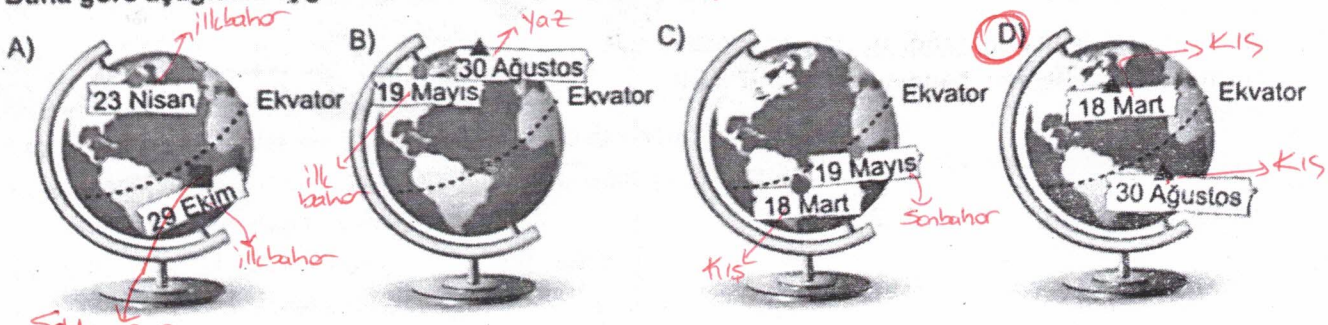

CamScanner ile tarandı

7. K ve L şehirlerinde yaşanan gündüz süresinin yıl boyunca değişimine ilişkin bir grafik aşağıda verilmiştir.

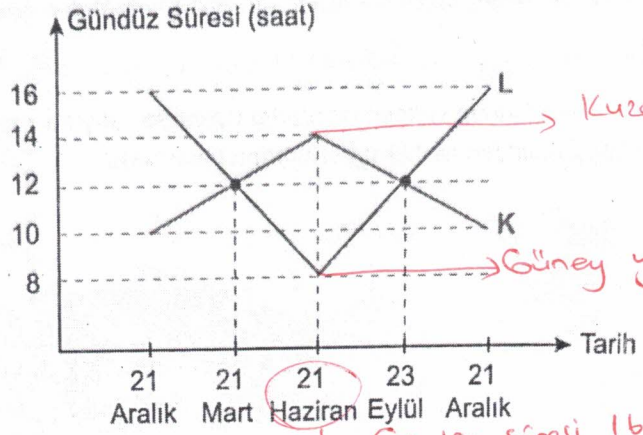

Kuzey yarım küre

Güney yarım küredir.

Gündüz süresi 16 değilde 14 olduğu için Ekvatora daha yakındır.

Buna göre şehirlerin Dünya üzerindeki konumları aşağıdakilerden hangisi olabilir?

A)

B)

C)

D)

8. Belli bir tarihte Dünya'nın Güneş etrafındaki konumu ve Güneş ışınlarının Dünya üzerinde dik düştüğü nokta eksenle aynı hizadan aşağıda gösterilmiştir.

X ve Y dönerelerde ise ekinoks tarihinde eşit açı ile ışınları alırlar Cisimlerin kendi boyları eşit olmalı Z'den uzun olmalıdır



En eğik açıyla ışın alan Z'nin gölge boyu en uzun olmalı, eşit olacaksa gölge boyları Z'nin kendi boyu eşitlenir

Bu tarihte X, Y ve Z şehirlerinde yeri dik konumlandırılmış opak ve silindirik cisimlerin öğle vakti gölge boyları eşit olmuştur.

Buna göre, cisimlerin kendi boyları arasındaki ilişki aşağıdakilerden hangisinde doğru verilmiştir?

A) X = Y = Z
B) X = Y > Z
C) Z > X = Y
D) Z > Y > X

9. Atmosferdeki su buharının yoğunlaşması sonucunda çeşitli hava olayları meydana gelebilir.

Su 0°C'da donduğuna göre seçeneklerden hangisinde verilen hava olayı ile olayın gerçekleştiği ortamın sıcaklığı uygundur?

A)
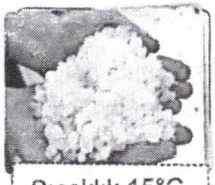
Sıcaklık 15°C
Dolu oluşumu

B)

Sıcaklık 10°C
Kırağı oluşumu

C)

Sıcaklık 5°C
Çiy oluşumu

D)

Sıcaklık 3°C
Kar oluşumu

* Dolu, Kırağı ve Kar oluşumunda sıcaklık 0°C veya altında bir sıcaklıkta olmalıdır
* Çiy → su buharının biraz soğuması sonucu yoğuşarak oluşur 5°C yoğuşma olabilir

Diğer sayfaya geçiniz.

CamScanner ile tarandı

10. Yapılan bir çalışmada iki kafesin taban kısımları aşağıda renkleri verilen kumaşlar ile kaplanmış ve her bir kafese eşit miktarda kahverengi kuş yemi ile beyaz renkli kurtlar ve özdeş kuşlar bırakılmıştır.

ortamları ile aynı-benzer renklere sahip canlılar konufle olur. Hayatta kalma ve üreme sansı artar. Konufle olmayanlar yok olur.

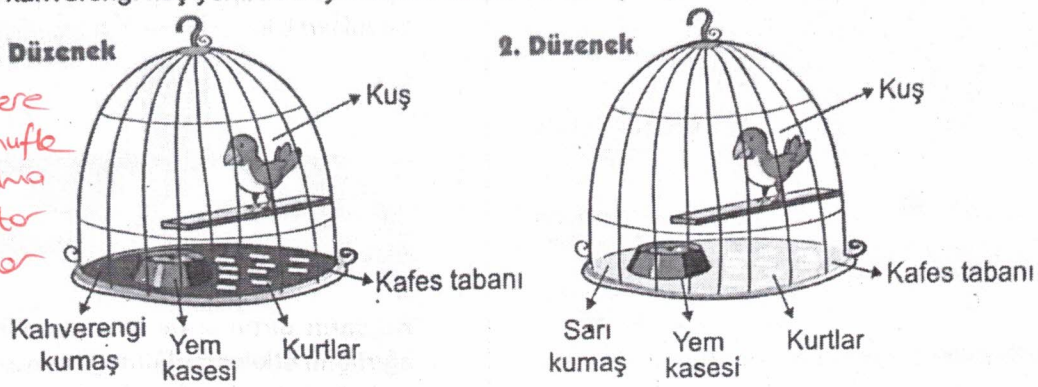

Günün sonunda her bir kuşun yediği kuş yemi ve kurt sayısı toplamının eşit olduğu, 1. düzenekte yer alan kuş yemi sayısının kurt sayısından, 2. düzenekte yer alan kurt sayısının ise kuş yemi sayısından fazla olduğu görülmüştür.

Buna göre yapılan çalışma adaptasyon ve doğal seçilim kavramları ile ilişkilendirilirse sonuçlardan yararlanarak aşağıdaki yargılardan hangisine ulaşılamaz? 1. düz = Kuş yemi ile zemin kahve renkli olduğu için yem konufle olur / 2. düz = Kafes tabanı ile kurtların rengi yakın, kurt konufle olur

A) Bir canlının renginin bulunduğu ortamın rengine yakın olması canlının hayatta kalmasına katkı sağlar.

B) Yaşadıkları ortamlar ile uyumlu olmayan canlılar için doğal seçilim süreci olumsuz yönde işler. → 1. DÜZ = Kurtlar, 2. DÜZ = Kuş yemi olumsuz etkilenir

C) Yaşadıkları ortamın özelliklerine uyumlu canlılar doğal seçilim sürecinde avantajlı durumdadır.

D) Bir yaşam alanında bir canlı türü ile beslenen canlıların sayısındaki artış bu canlı türünün sayısının azalmasına yol açar.

↳ Kuşların sayısında bir artış olduğuna dair bilgi verilmemiş bu yorum yapılamaz. !

11. Sağlıklı bir insanın kalıtsal materyalleri sembolik olarak aşağıdaki doğrusal ok ile gösterilmiştir.

	Gen 1	Gen 2	Gen 3	Gen 4
	Hemoglobin üretiminden sorumlu bölge	Ten renginden sorumlu bölge	Kanın pıhtılaşmasını sağlayan proteinlerin üretiminden sorumlu bölge	Vücut kıl durumunun belirlenmesinden sorumlu bölge
Kalıtsal materyalde bozulma sonucunda ortaya çıkabilecek durumlar	Orak hücreli anemi	Albinoluk	Hemofili (Kanın pıhtılaşmaması)	Hipertrikozis (Aşırı kıllanma)

!

Buna göre kalıtsal materyali;

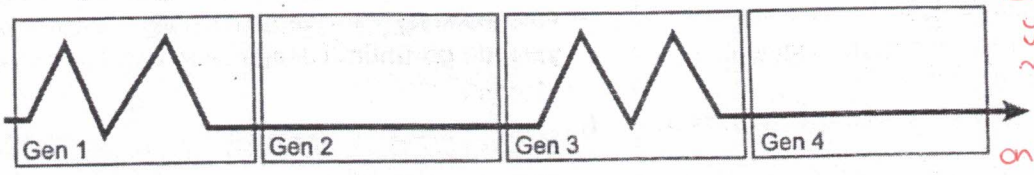

Gen-1 ve Gen-3 yapılarında bozulma meydana gelmiş hemofili, orak hücreli anemi ortaya çıkabilir.

şeklinde oluşan bir insan ile ilgili aşağıdakilerden hangisi doğrudur?

A) Orak hücreli anemi hastalığının ortaya çıkma ihtimali vardır. → Gen yapısı bozulmuştur

B) Ten renginde bronzlaşma mümkün değildir. → bronzlaşma modifikasyondur, kalıtsal olmadığından görülebilir.

C) Hemofili hastalığının ortaya çıkma ihtimali yoktur. → Gen yapısı bozulmuş, ortaya çıkabilir.

D) Hipertrikozis hastalığına sahiptir. Gen-4 hata olmadıysa kıllanma olmayabilir.

CamScanner ile tarandı

12. Aşağıda koyunlarda yapılan bir klonlama uygulamasının adımları şema hâlinde verilmiştir.

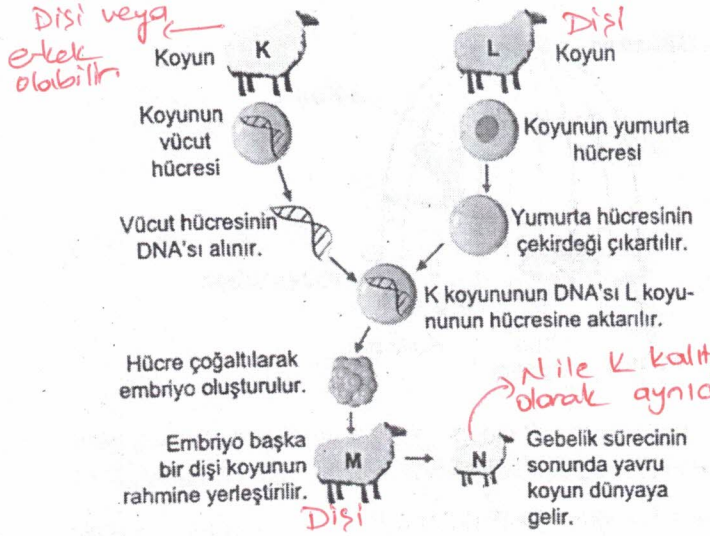

Dişi veya erkek olabilir
Dişi
N ile K kalıtsal olarak aynıdır
Dişi

Buna göre hatasız gerçekleştirilen bir klonlama uygulaması hakkında aşağıda yapılan yorumlardan hangisi yanlıştır?

A) Uygulamada yavru koyuna L koyunundan herhangi bir gen aktarımı gerçekleşmez.

B) K koyununun kalıtsal özelliklerinin aynısı yavru koyuna aktarılır. DNA'sı alınan canlıya benzer

C) Uygulamada yararlanılan koyunlardan en az ikisi dişi olmak zorundadır. yumurta ve rahim sadece dişilerde vardır.

D) Uygulama koyunların sperm ve yumurta hücrelerinin çekirdeklerinin kaynaştırılması sayesinde gerçekleştirilir. Bu normal döllenme yönteminde kullanılır.

13. 1928 yılında Alexander Fleming'in Penicillium notatum adı verilen küf mantarının petri kabındaki bakterileri imha ettiğini keşfetmesi modern antibiyotiklerin geliştirilmesinde eşik kabul edilir.

tıp ve eczacılık

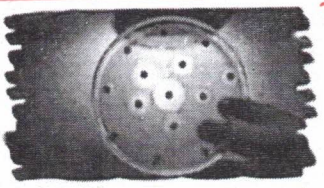

Buna göre penisilin adı verilen etken maddeli ilaçların geliştirilmesi ile ilgili, antibiyotiklerin gelişimi biyoteknoloji sayesinde

I. Biyoteknolojinin tıp ve eczacılık alanındaki uygulamalarına örnek gösterilebilir.

II. Biyoteknolojinin olumlu uygulamaları arasında değerlendirilir. Hastalıkları tedavi amaçlı kullanıldığı için olumlu etki

III. Genetik mühendislerinin çalışmaları sonucunda elde edildiklerini söylemek için verilen bilgiler yeterlidir. yeterli değildir

ifadelerinden hangileri doğrudur?

A) Yalnız I
B) I ve II
C) II ve III
D) I, II ve III

14. Her biri özdeş küplerle oluşturulan cisimler, özdeş kum zemine aşağıdaki gibi bırakılarak kumda oluşturdukları izlerin derinlikleri ölçülüyor.

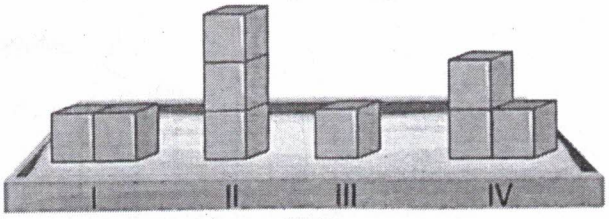

Küplerin birbirlerine monte edilmesi cisimlerin ağırlığını etkilemediğine göre numaralandırılmış cisimlerin her tarafı özdeş kum zeminde oluşturduğu izlerin derinliklerinden yararlanarak aşağıdaki sorulardan hangisine cevap bulunamaz?

A) Katı cisimlerin temas yüzey alanlarının değişmesi zeminde oluşturdukları basıncı etkiler mi? II ve IV şekiller

B) Katı cisimlerin zemine uyguladıkları kuvvetin değişmesi zeminde oluşturdukları basıncı etkiler mi? II ve III I ve IV olabilir

C) Katı cisimlerin zemine uyguladıkları kuvvet ve zemine temas eden yüzey alanlarının aynı oranda değişmesi zeminde oluşan basıncı etkiler mi? I ve III şekiller

D) Katı cisimlerin kuvvet uyguladıkları zeminde oluşturdukları basınç üzerinde zeminin cinsinin etkisi var mıdır? ulaşılamaz

Yanda verilen numaralardaki şekilleri birbirinyle kıyaslarsak cevapları bulabiliriz. Ancak D seçeneği için kumdan farklı bir maddenin kullanıldığı düzenek yok.

15. Aşağıda bir fayans ustasının her tarafı özdeş kum zemine K fayansını ve K fayansı ile özdeş bir başka fayansı düşey doğrultuda keserek oluşturduğu L fayansını yerleştirmesinin üstten görünümü verilmiştir.



$\frac{20N}{2S} = 10pa$

10N

K'cumin dikey şekilde alınmış hali

$\frac{10N}{S} = 10pa$

Basınçlar eşittir

Buna göre 2 cm kalınlıktaki fayansların 10 cm yükseklikteki kum zeminde batma durumunun yatayda görünümü aşağıdakilerden hangisi gibi olabilir? Şeklin hem yüzey alanı hem de ağırlığında eşit oranda azaltılırsa basınç değişmez

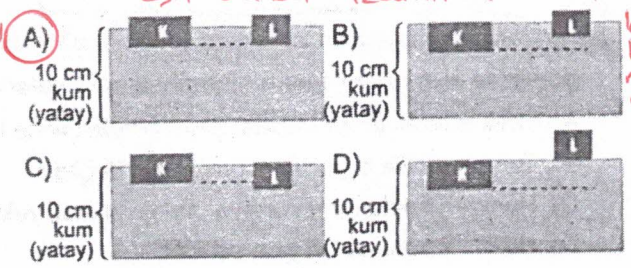

kumda batma miktarı eşitti

CamScanner ile tarandı

16. Bir öğrenci aşağıdaki kâğıt üzerine temsili bir DNA molekülü çizmiş ardından kâğıdı kesikli çizgi doğrultusunda keserek ikiye bölmüştür.

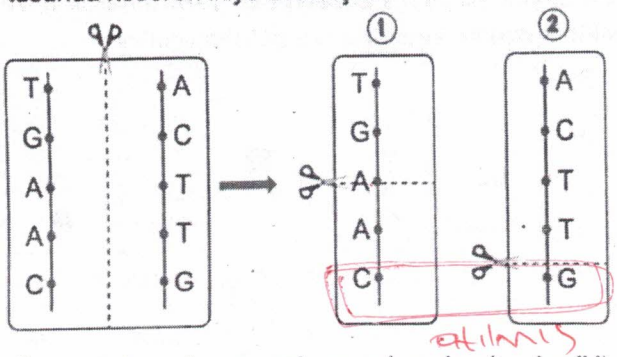

atılmış

Öğrenci 1 ve 2 numaralı parçaları da yine kesikli çizgilerin doğrultusunda keserek elde ettiği parçaları çöpe atmıştır. Öğrencinin elinde kalan parçalar ise aşağıdakiler olmuştur.

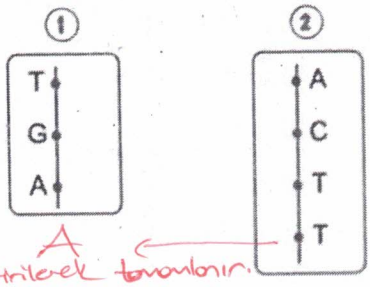

A getirilerek tamamlanır.

Öğrenci kalan parçaları DNA'nın karşılıklı nükleotid eşleşme kuralını bilen bir arkadaşına vererek iki zincirin aynı DNA molekülünün karşılıklı zincirleri olduğunu belirterek arkadaşından baştaki DNA molekülünü tekrar çizmesini istemiştir.

Buna göre baştaki DNA molekülünü görmeyen arkadaşının bu zincirlerden yararlanarak baştaki molekülü oluşturabilme durumu ile ilgili,

I. Toplam nükleotid sayısını kesin olarak bilebilir.

II. Baştaki DNA'nın 8 nükleotidden oluşan kısmını hatasız oluşturabilir.

III. Baştaki DNA molekülünün aynısını kesinlikle oluşturabilir. En alttaki C ve G kesilerek atıldığı için tamamı oluşamaz.

ifadelerinden hangileri doğrudur?

A) Yalnız I
B) Yalnız II
C) I ve III
D) II ve III

17. Bezelye bitkisinde bazı karakterlerin baskınlık çekiniklik durumu aşağıdaki tabloda verilmiştir.

Her bir karaktere ait baskın genlerin "A", çekinik genlerin ise "a" ile gösterildiği bir durumda aşağıdakilerden hangisi doğrudur?

A) Fenotipi mor çiçekli olan bir bezelye bitkisinin çiçek rengi karakterinin genotipi "aa" şeklinde olabilir. Mor baskındır genotipi AA, Aa olabilir aa → beyaz çiçek genotipidir.

B) Fenotipi çiçeği uçta olan bir bezelye bitkisinin çiçeğin konumu karakterinin genotipi "Aa" olabilir. → çiçeği yandanın genotipi

C) Meyve rengi karakterinin genotipi "AA" olan bir bezelye bitkisinin meyvelerinin rengi yeşil olur. → Baskın özellik olabilir

D) Meyve şekli karakterinin genotipi "Aa" olan bir bezelye bitkisinin meyveleri boğumlu olur. → Düz meyve şekline ait

aa Çekinik

18. Bezelye bitkisinde bazı karakterler için baskınlık ve çekiniklik durumları aşağıda verilmiştir.

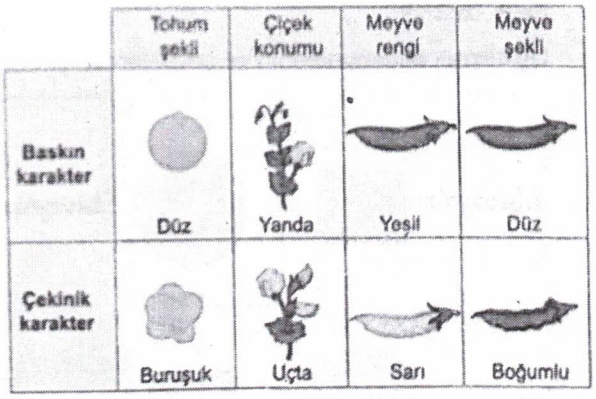

Karakterlerden herhangi biri üzerinde yapılan bir çaprazlamada genotip ve fenotip oranları 2:2 şeklinde oluştuğuna göre çaprazlanan bezelyelerin fenotipleri aşağıdakilerden hangisi olabilir?

A) Düz tohumlu × Düz tohumlu → ikisi melez ise 3 genotip 2 fenotip olusur.

B) Uçta çiçekli × Uçta çiçekli → Tek genotip ve fenotip ol

C) Yeşil meyveli × Yeşil meyveli → Tek fenotip 1 veya 2 genotip olabilir.

D) Düz meyveli × Boğumlu meyveli

melez ise iki genotip iki fenotip olabilir.

Aa × aa

Genotip: Aa Aa, aa aa

Fenotip: %50 düz / %50 boğumlu

CamScanner ile tarandı

19. Aşağıda K ve L ile gösterilen bezelyeler ile bu bezelyelerin tozlaştırılması sonucunda oluşan M yavru bezelyelerinin fenotipleri gösterilmiştir.

Buna göre seçeneklerden hangisinde yer alan ata bezelyeler ve yavru bezelyeden yararlanarak bezelye bitkisinde gövde uzunluğu karakterinde baskın ve çekinik özellik kesin olarak belirlenebilir?

A)
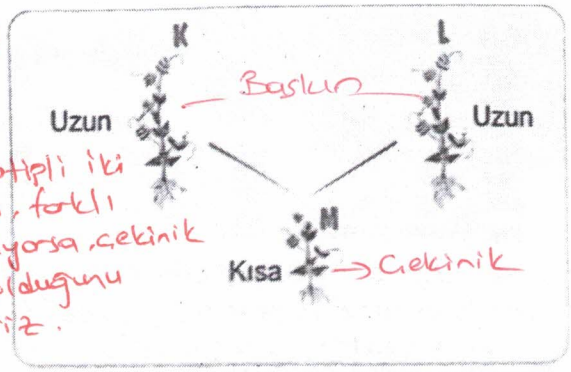

Baskın

Çekinik

aynı fenotipli iki bezelyeden, farklı fenotip çıkıyorsa, çekinik karakter olduğunu söylebiliriz.

B)
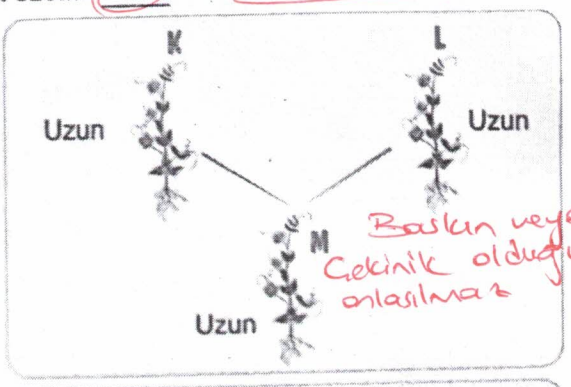

Baskın veya Çekinik olduğu anlaşılmaz

C)
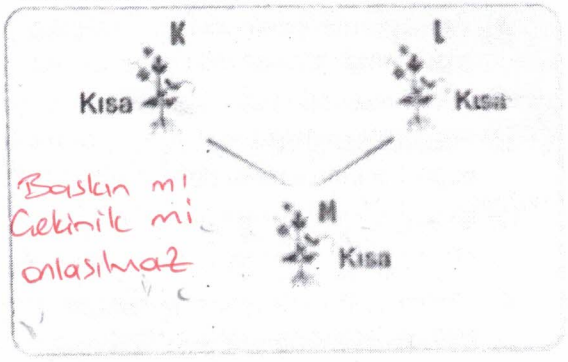

Baskın mı Çekinik mi anlaşılmaz

D)
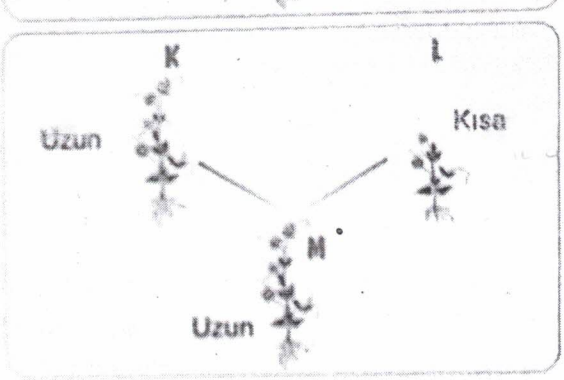

20. Bilgi: Kalıtsal hastalıklardan bazıları çekinik genlerle taşınır, yani bir bireyde bu tür bir hastalığın ortaya çıkması için birey, hastalık genini hem annesinden hem de babasından almalıdır. Akrabalar arasında genetik benzerlik daha fazladır.

Üç ailenin ebeveynlerinin ve çocuklarının yer aldığı aile ağaçları aşağıda verilmiştir.

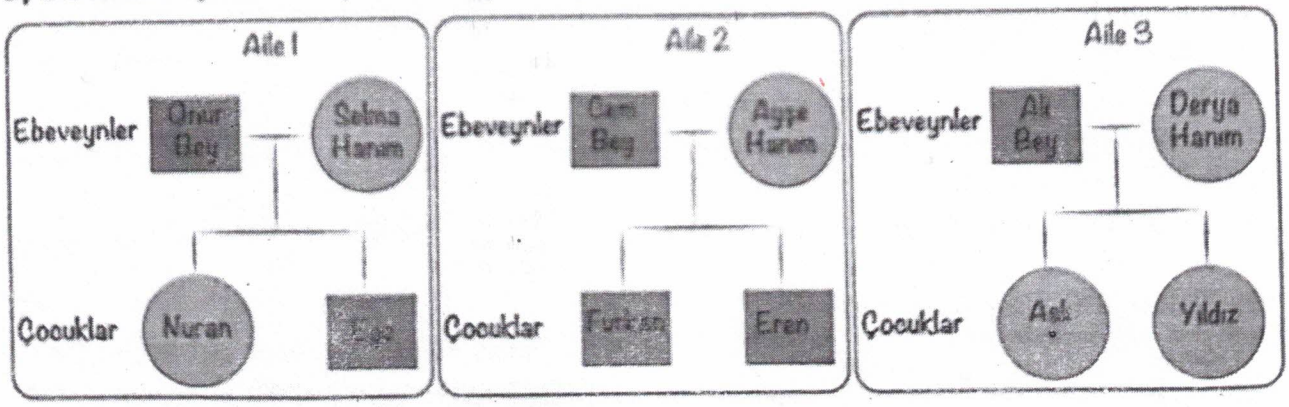

Soy ağaçlarında ■ şekli erkek bireyleri, ● şekli ise dişi bireyleri göstermektedir.

Selma Hanım ve Derya Hanım kardeşken diğer ebeveynlerin aralarında kan bağı yoktur.

Nuran, Ege ile Aslı, Yıldız kuzenler.

Buna göre aşağıda verilen çocuk ikililerinden hangisinin evlenmesi hâlinde kalıtsal bir hastalığa sahip çocuklarının olma olasılığının diğerlerinden daha fazla olması beklenir?

Akraba evliliklerinde bu ihtimal artar.

A) Ege ve Aslı B) Nuran ve Furkan C) Eren ve Yıldız D) Furkan ve Aslı

1. ve 3. Ailelerin çocukları birbiriyle evlenirse, ortak genleri daha fazla olduğu için kalıtsal hastalıkların ortaya çıkma ihtimali daha yüksek olur.

TEST BİTTİ. CEVAPLARINIZI KONTROL EDİNİZ.

CamScanner ile tarandı

1. Eylemin hangi amaca bağlı olarak gerçekleştiğinin belirtildiği cümlelere amaç-sonuç cümleleri denir.

Buna göre aşağıdaki cümlelerin hangisinde amaç-sonuç ilişkisi vardır?

A) İhtiyar esir, bu viran bağın içindeki harap kulübeyi bulunca içeri girdi.

B) İçinde biriktirdiklerini konuşmak için önce içini derin derin çekmeye başladı.

C) Osmanlı ordusundaki bir geleneğe göre yeminler; tuz, ekmek ve kılıç üzerine yapılırdı.

D) Çoban, gelenin kim olduğunu göremediği için gözlerini kısarak karşıya bakmaya başladı.

+Neden-sonuç

Neden-Sonuç - Bir eylemin hangi gerekçeyle veya hangi sebeple yapıldığını bildiren cümlelerdir.

Benzetme: Zayıf olan bir varlığı güçlü olan bir varlığa bir yönüyle benzetilmesidir.

2. Akşam, bir sihirli tablo; gözlerim kamaşıyor
Düşünürken akşam olmadan âleme varanları

Bu dizelerdeki söz sanatının özdeşi aşağıdaki dizelerin hangisinde vardır?

A) Yitirdim denizin saçına tutkun
Sabahleyin erken kalkanlarımı

B) Saatler bitmiyor yapayalnızım
Gülmek istiyorum, gülemiyorum

C) Kar yağar, çığ düşer yollar açılmaz
Seller iner derelerden geçilmez

D) Hâlâ solmayan bir lale gibisin
Bana sürgününü gönderiyorsun

+Benzetme sanatı

3.

> Yapılan son çalışmalar, kuru görünen Mars'ta yaşamın temel kaynağının yani suyun azımsanmayacak kadar çok olduğunu gösteriyor. Bu yüzden Mars, giderek bizim için daha farklı bir görünüm kazanıyor. Bu belki pek yakında gerçekleşmeyecek ---------- Mars'ı bir gün ikinci evimiz olarak göreceğiz.

Boş bırakılan yere aşağıdakilerden hangisi getirilirse metnin anlam bütünlüğü bozulur?

A) Hâlbuki

B) Ama

C) Fakat

D) Ancak

Sıfat Fiil: an mış. ası mez ar dik ecek

İsim fiil: ma ış mak

4. Fiilimsiler, fiil anlamı taşıdıkları hâlde fiiller gibi çekimlenemez. Cümlede isim, sıfat ve zarf görevinde bulunur ve isim-fiil, sıfat-fiil, zarf-fiil olmak üzere üç türe ayrılır.

Buna göre aşağıdaki cümlelerin hangisinde farklı türden fiilimsi kullanılmıştır?

A) Beyaz Diş'i gören ve onu hayranlıkla izleyen Smith, Beyaz Diş'i sahibinden satın alır.

B) Yakın zaman önce esen bir rüzgâr, ağaçların üzerindeki beyaz buz örtüsünü sıyırmıştı.

C) Beyaz Diş'in sahibi, hayata ve yaşam çabasının beyhudeliğine bakarak gülümsedi.

D) Buz tutmuş su yolunun aşağısından bir grup köpeğin sesi geliyordu.

Kişilendirme: İnsana ait özelliklerin insan olmayan varlıklara mal edilmesiyle gerçekleştirilen anlatım yöntemidir.

CamScanner ile tarandı

5.

Grönland Adası, günümüzde bir kaç kilometrelik buz tabakasıyla örtülüdür. Bu buz tabakası, kıyı buzullarını beslediği gibi çok sayıda eriyik su akıntıları barındırır. Hatta Grönland'ın altında devasa bir kanyon bile vardır. Fakat Arktik ada, her zaman bu kadar buzlu değildi. 2,5 milyon yıl kadar önce buzsuz olabilirdi ve bu zamandan sonra bile Grönland'da hep sıcak ve en azından buzsuz zamanlar olmuştur. Bununla birlikte Grönland'ın son olarak ne zaman buzsuz olduğu ve o tarihlerde hangi yaşam dünyasının bulunduğu pek bilinmez.

I II III IV

Bu metindeki numaralanmış sözlerden hangisinin yazımı yanlıştır?

A) I B) II C) III D) IV

birkaç bitişik yazılır.

6.

Özne; yüklemin bildirdiği işi yapan, yüklemin bildirdiği durumu üzerine alan ögedir.

Buna göre aşağıdakilerin hangisinde altı çizili öge cümlenin öznesidir?

A) Her tarafta, onlara varlığını somut bir şekilde dayatan sessizlik vardı.

B) Kısa ve güneşsiz bir günün solgun ışığı kaybolmaya başlamıştı.

C) Hızla yükselen bu çığlık, gergin ve titrek şekilde bir süre devam etti.

D) Köpeklerin önünde, geniş kar ayakkabıları giymiş bir adam çabalıyordu.

Özne; kim ve ne sorularıyla bulunur.

7. İnsanın yeryüzündeki hikâyesi, eşyanın hikâyesiyle başlar. Tıpkı insanlığın, insanın olduğu gibi eşyanın da bir hikâyesi vardır. Eşyanın hikâyesi; dünyada henüz gelişmiş teknoloji, modern iletişim, bilişim gibi şeyler yokken basit ama eskimeyen buluşlarla başlar. İnsan bir yandan bu buluşlarla uğraşırken diğer yandan eşyanın tabiatına dair tecrübeler kazanır. Yaşadığı ya da kazandığı en değerli tecrübelerini kendi hikâyesine ekler.

Bu metnin anlatımıyla ilgili aşağıdakilerden hangisi söylenemez?

A) Örneklendirmeden yararlanılmıştır.

B) Tanık göstermeden yararlanılmıştır.

C) Karşılaştırmaya başvurulmuştur.

D) Benzetmeye başvurulmuştur.

Yazarın, savunduğu düşüncenin doğruluğuna okuyucuyu inandırabilmek için tanınan ve görüşlerine itibar edilen kişilerin sözlerinden alıntı yapılmasına tanık gösterme denir.

CamScanner ile tarandı

8. 1876 yılında Diyarbakır'da doğan ve 48 yıllık kısa ömrüne sığdırdığı eserleriyle hâlâ konuşulmaya ve okunmaya devam eden Ziya Gökalp hakkında "Batı'dan aldığı ilhamı İslam ve Türk kültürüyle birleştirerek bir sentez oluşturmuştur." denilebilir.

Bu cümledeki bazı sözcüklerin anlamları "■, ★, ●, ▲" simgeleriyle verilmiştir.

■ Doğumla ölüm arasında yaşanan süre; dirim, yaşam, hayat

★ Emek sonucu ortaya konan ürün; yapıt

● Etkilenme, çağrışım veya içe doğmayla akla gelen yaratıcı duygu, düşünce

▲ Yalından karmaşık olana, külliden cüziye, zorunludan olasıya, ilkeden onun uygulanmasına, genel yasadan bireysel duruma, nedenden etkiye, öncülden varılan sonuca giden düşünme biçimi

Bu sözcükleri metinden bularak bulmacaya yerleştiriniz.



Numaralanmış kutularda yer alan harfler "ANAHTAR SÖZCÜK" bölümüne yerleştirildiğinde aşağıdakilerden hangisi oluşur?

A) EZME B) MÜZE C) ÜZME D) ÜZÜM

9. (I) Evrende, ilk patlamadan hemen sonra milyarlarca derecelik sıcaklıklar hüküm sürüyordu. (II) Evren, bu sıcaklıktan çıkıp soğumaya başladığında ilk önce atom çekirdekleri, daha sonra ise atomlar oluştu. (III) Buna bağlı olarak kozmik ışınları evrende serbest kaldı. (IV) Bu çekim o kadar kuvvetli ki gitgide daha fazla gaz ısınıyor.

Bu metindeki numaralanmış cümlelerden hangisi düşüncenin akışını bozmaktadır?

A) I B) II C) III D) IV

10. I. Göz diktiği her ne varsa elde etmeyi başarıyordu.

II. Elime güzel araba geçti, ona da sen mi göz koydun?

III. Gözünün ucuyla içeriye şöyle bir bakıp geçti.

IV. İçeri telaşla girişi hâlâ gözümün önündedir.

Numaralanmış cümlelerdeki deyimlerin hangileri anlamca örtüşmektedir?

A) I – II B) I – III

C) II – III D) II – IV

Göz diktiği: Bir şeyi ele geçirmek istepine kapılmak.

Göz koymak: Bir kimseyi veya bir şeyi ele geçirmek istemek.

CamScanner ile tarandı

Deneme; Yazarın belli bir konuya ilişkin kişisel duygu ve düşüncelerini anlattığı metinlere denir.

11.

> İçinde yaşadığımız bilgi çağında eşi görülmemiş miktarda veri, bir parmak dokunuşu kadar yakınımızda. Özellikle de sağlık konusunda... Bununla birlikte doğmamış çocuklarımıza genetik testler, kendimiz için düzenli kanser taramaları ve daha nicesiyle ilgili hızlı bir şekilde bilgi edinmemiz mümkün. Ancak bize fayda sağlayacak olsa bile bu bilgilerden kaçıyoruz. Çünkü bu bilgilerin bize acı verebilecek bilgiler olacağını düşünüyoruz. Sizce de öyle değil mi? Bu ilk aşamada çok mantıklı gelebilir hatta siz de böyle düşünüyor olabilirsiniz. Ancak bu bilgiler, önlem anlamında bize yardımcı olabilir. Mesela hastalığımızın belirtilerini önceden belirlemek, erken tanı ve tedavi hayati olabilir. Bence siz de bu durumu kulağınıza küpe yapın.

Bu parça aşağıdaki metin türlerinden hangisine aittir?

A) Deneme B) Makale
C) Sohbet D) Hikâye

Sohbet; Sohbet türünde amaç bilimsel bir ispat değil okuyucuyla samimi diyaloglar kurarak kişisel düşüncelerini açıklamaktır.

12. (I) Ziya Gökalp, gurbette yakınlarından gelecek bir mektubun ve mektup vasıtasıyla alınacak güzel bir haberin çok önemli olduğuna inanır. (II) Postada çeşitli aksamalar dolayısıyla mektuplar birkaç gün geciktiği zaman istem dışı olarak bir süre üzüntüye veya karamsarlığa kapılmaktan kendisini alamaz. (III) Bir baba ve eş olarak sürekli İstanbul'da bıraktığı karısını ve çocuklarını; onların sağlık, geçim ve eğitim meselelerini düşünür. (IV) Bu ayrılığın bir an önce sona ermesi için kendisi Allah'a dua ettiği gibi, aynı şekilde çocuklarının da dua etmesini ister.

Bu metinde numaralanmış cümlelerin hangisinden sonra "Dolayısıyla hemen her gün çocuklarından gelecek bir mektubu ya da iki satırlık bir kâğıdı bile âdeta dört gözle beklerdi." cümlesi getirilebilir?

A) I B) II C) III D) IV

13. Tasarlanmış veya yaşanmış bir olayın başkalarına sözle ya da yazıyla anlatıldığı anlatım biçimine öyküleme (hikâye etme) denir.

Bu bilgiye göre numaralanmış metinlerin hangilerinde öyküleme anlatım tekniğine başvurulmuştur?

I. Alttan alta tutuşmuş hâldeydi köyün tüm ekinleri. Alt yaprakların tamamı sapsarıydı. Üste de koyu bir morluk, sarılığın sırtına çökmüş gibiydi. Can alıcı yeşilden iğne boyu bir uç gözükmüyordu.

II. Televizyonu saat beşte çalışmak üzere video aygıtıyla otomatiğe ayarladı. Bu hazırlık bitince mutfağa geçti. Buzdolabından bir gün önce pişirdiği çorbayı çıkarttı. Tahta kaşıkla çorbayı karıştırmaya başladı.

III. Çantasını kontrol etti, küçük valizini sevgiyle okşadı. Yüzünde muzip, muzır bir gülümseyişle evi son kez gözden geçirdi. Kapıyı çekti ve çıktı.

A) I – II B) I – III
C) II – III D) I – II – III

Öyküleme anlatımda amaç okuyucuyu olay içinde yaşatmaktır.

A, C ve D şıklarında yalnızlık ve hüzün teması hakimdir.

14. **Aşağıdaki dizelerden hangisi tema bakımından diğerlerinden farklıdır?**

A) Hüznümün dudağıdır gökte açan karanfil
Yalnızlık, bir cellat gibi vurdu yüreğimizi

B) Gönlümün maviliği gitmesin gökyüzünden
Kuşların gülücüğü eksilmesin yüzünden

C) Bakmayın çevremi kuşatanlara
Hüznün, yalnızlığın şairiyim ben

D) Seni kaybettiğim o günden beri
İçimi dağlıyor hüzün ve yalnızlık

CamScanner ile tarandı

15.

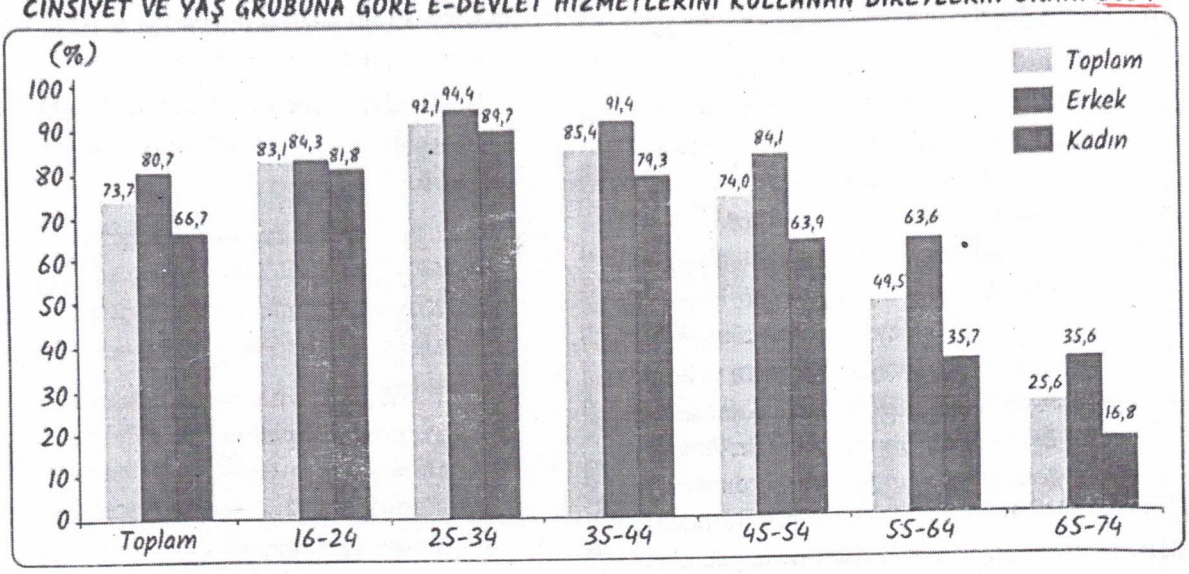

Bu grafik aşağıdaki haber metinlerinden hangisini destekler?

A) Bireylerin e-devlet hizmetlerini kullanım amaçları arasında, %68,6 ile resmî makamlar veya kamu hizmetleri tarafından kendisi hakkında saklanan kişisel bilgilere erişme ilk sırayı aldı. Bunu, %47,9 ile kamu kurumlarından veya kamu hizmetlerinden bir randevu alma veya rezervasyon yaptırma ve %45,1 ile kamu kuruluşlarına ait web sitelerinden bilgi edinme takip etti.

B) 2024 yılında toplamda e-devlet hizmetlerinden yararlanan bireylerin oranı %73,7 oldu. Bu oran, erkeklerde %80,7 iken kadınlarda %66,7 olarak gerçekleşti. E-devlet hizmetlerini kullanan bireylerin oranı yaş grubuna göre incelendiğinde ise bu oranın en yüksek %92,1 ile 25-34 yaş grubunda, en düşük %25,6 ile 65-74 yaş grubunda olduğu görüldü.

C) Son 12 ayda internet kullanan bireylerin internet üzerinden özel kullanım amacıyla mal veya hizmet satın alma ya da sipariş verme (e-ticaret) oranı, 2023 yılında %49,5 iken 2024 yılında %51,7 oldu. Cinsiyete göre internet üzerinden mal veya hizmet satın alma ya da sipariş verme oranı erkeklerde %54,1, kadınlarda %49,3 oldu.

D) İnternet kullanım oranı, 16-74 yaş grubundaki bireylerde 2023 yılında %87,1 iken 2024 yılında %88,8 oldu. Cinsiyet ayrımında 2024 yılında internet kullanım oranı; erkeklerde %92,2, kadınlarda %85,4 olarak gözlendi.

16. IBAN, dünyadaki tüm banka hesapları içinde yalnızca bir hesabı işaret eden; rakam ve harflerden oluşur. Her hesabın bir IBAN'ı vardır ve bir IBAN, yalnızca bir hesabı işaret eder.

- IBAN'ın ilk dört hanesi, iki haneli ülke kodu ve iki haneli kontrol rakamından oluşur.
- Kontrol hanesi, IBAN'ın doğru ve geçerli olup olmadığını gösteren 2 basamaklı sayıdır.
- Kontrol rakamlarından sonra 5 haneli banka kodu yer alır.
- Daha sonraki kısımda 1 haneli rezerv alan ve 16 haneli hesap numarası yer alır.

Bu bilgilere göre aşağıdakilerden hangisi geçerli bir IBAN numarasıdır?

A) TR 56 01234 0 1234567890123456

B) TR 56 01234 0 12345678901234567

C) TR 560 1234 01234567890123456

D) TR 6 01234 01234567890123456

CamScanner ile tarandı

17. Temel ham maddeleri kil ve grafit(siyah renkli karbon) olan kurşun kalemin ilk ortaya çıkışı, 16. yüzyılın başlarına denk gelir.

Bu cümleden kurşun kalemle ilgili,

I. 16. yüzyıldan önce olmadığına

II. Temel ham maddelerinden birinin grafit olduğuna

III. 16. yüzyıldan sonra yaygınlaştığına

yargılarından hangilerine kesin olarak ulaşılır?

A) I – II
B) I – III
C) II – III
D) I – II – III

18. İnsan, sadece doğduğu yere benzemez; kendi eşyasının tabiatına, sertliğine, yumuşaklığına, albenisine de benzer.

Aşağıdakilerden hangisi anlamca bu cümleye en yakındır?

A) Her insan, doğup büyüdüğü yerin kendine özgü özelliklerine benzer.

B) Bazı insanlar, kendi doğdukların yerlerin özelliklerine hiç benzemez.

C) Kendi eşyasının özelliklerine benzeyen insan, başka bir şeye benzemez.

D) İnsan, doğduğu yerle birlikte sahip olduğu eşyanın özelliklerine de benzer.

19. Yutkunma zorluğunun giderilmesi için hangi tedavi yöntemleri kullanılır?

Aşağıdaki metinlerden hangisi bu soruya verilmiş bir yanıt olamaz?

A) Hastaya yeni yutma yöntemleri öğretilir. Yapılan çeşitli egzersizler yoluyla yutkunma zorluğu giderilir. Bu tedavi, bir dil ve konuşma terapisti tarafından yapılır.

B) Yutkunma zorluğu; genellikle inme, kafa travması gibi bir nedenden meydana gelir. Bu hastalıklar boğaz kaslarını zayıflatabilir. Bu nedenle yutulmaya başlanan yiyeceklerin ağızdan boğaza ve akabinde yemek borusuna taşınması zorlaşabilir. Yutkunma zorluğunun nedenini açıklamaktadır.

C) Bazı yiyeceklerin ya da sıvıların yutulması daha kolaydır. Önce yutulması en kolay gıdaların saptanması gerekir. Daha sonra bu gıdalar kullanılarak yutkunma zorluğu giderilir.

D) Yutkunma zorluğu çeken hasta zatürre riski altındaysa nazal tüp yardımıyla cerrahi müdahale yapılarak yutkunma zorluğu giderilir.

20. **Aşağıdaki cümlelerin hangisinde noktalama işaretlerinin kullanımıyla ilgili bir yanlışlık yapılmıştır?**

A) Orta Myanmar'daki yağmur ormanlarında yaşayan yaprak maymunlarının sayısı 200-250 civarındadır.

B) Ay'ın yüzeyindeki en büyük ve en eski çarpma krateri; 2.500 kilometreden fazla genişliğe sahiptir.

C) GPS gibi uzay sistemleri çevrim dışı bırakılırsa dünyanın büyük bir kısmı, 1950'lerin iletişim teknolojilerine döner.

D) 9 Ekim 2024 saat 04.56'da Güneş'in Dünya'ya bakan bölgesinde parlamalar gözlemlendi.

CamScanner ile tarandı

1. **Mondros Ateşkes Antlaşması'yla ilgili İtilaf Devletleri, "Gerçekleştirmeyi planladıkları işgallere yönelik hukuki zemin hazırlamayı amaçlamıştır." diyen bir tarihçi aşağıdakilerden hangisini bu düşüncesine kanıt olarak gösterebilir?**

A) Sınırların korunması ve iç güvenliğin sağlanması için gerekli askerin dışında Osmanlı ordusu terhis edilecektir.

B) İtilaf Devletleri'nin esirleri derhâl serbest bırakılacak, Osmanlı esirleri serbest bırakılmayacaktır.

C) Tüm telsiz, telgraf hatları; Toros tünelleri ve bütün demir yolları İtilaf Devletleri'nin denetiminde olacak.

D) İtilaf Devletleri, güvenliklerini tehdit eden bir durum olursa herhangi bir stratejik noktayı işgal edebilecektir.

2.

Cemiyetin Adı
Wilson Prensipleri Cemiyeti

Cemiyetin Kuruluş Amacı
1918 yılı Aralık ayında İstanbul'da Amerikan mandasını isteyen bazı Osmanlı aydınları tarafından kurulduğu. İşgallere karşı çıkan cemiyet, kurtuluşun Amerikan mandasına girerek gerçekleşebileceğini savundu. Cemiyet üyesi bazı aydınlar daha sonra Millî Mücadele'ye katıldı.

Buna göre Wilson Prensipleri Cemiyeti ile ilgili aşağıdaki yargılardan hangisi doğrudur?

A) Amerikan halkı tarafından kurulmuştur.

B) Bağımsızlık ilkesine aykırı hareket etmişlerdir.

C) Millî Mücadele'nin başlamasını sağlamışlardır.

D) Osmanlı yöneticilerinin desteğini almışlardır.

3.

Mondoros Ateşkes Antlaşması

İtilaf Devletleri güvenliklerini tehdit edecek bir durumun ortaya çıkması hâlinde herhangi bir stratejik noktayı işgal etme hakkına sahip olacaktır.

Havza Genelgesi

İzmir'in işgali ve diğer işgallerin mitingler düzenlenerek protesto edilmesini istedi. Mitingler sırasında azınlıklara karşı bir saldırı ve düşmanlık yapılmayacaktır.

Verilenlerden hareketle Mustafa Kemal'in Havza Genelgesi ile aşağıdakilerden hangisini amaçladığı söylenebilir?

A) İtilaf Devletleri'nin türlü bahanelerle topraklarımızı işgal etmesini önlemek

B) Osmanlı yöneticilerinin Millî Mücadele'ye desteğini alabilmek

C) İtilaf Devletleri ile yapılacak olan barış antlaşmasının şartlarını belirlemek

D) Millî cemiyetler arasında güç birliğinin artmasını sağlamak

4. **"Mustafa Kemal bir ihtilal belgesi olarak yayımladığı Amasya Genelgesi ile Millî Mücadele'nin amacını ve yöntemini belirlemiştir. Yine aynı madde içerisinde millî egemenliğe vurgu yapmıştır." diyen bir tarihçi aşağıdakilerden hangisini bu düşüncesine kanıt olarak gösterebilir?**

A) Her türlü baskıdan uzak, millî bir kurul oluşturulmalıdır.

B) Vatanın bütünlüğü, milletin bağımsızlığı tehlikededir.

C) Her bakımdan güvenli olan Sivas'ta millî bir kongre toplanacaktır.

D) Milletin bağımsızlığını yine milletin azim ve kararı kurtaracaktır.

CamScanner ile tarandı

5. Yanda Osmanlı Devleti'nin I. Dünya Savaşı'nda savaştığı cepheleri gösteren bir harita verilmiştir.

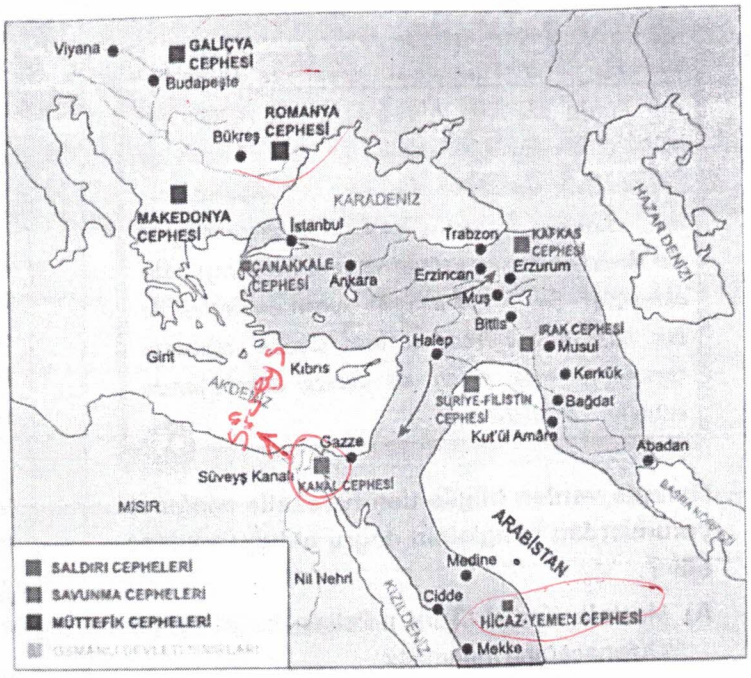

Verilen haritadan Almanya'nın Osmanlı Devleti'ni kendi yanında savaşa sokmak istemesinde,

I. Savaşı daha geniş bir alana yaymak,

II. Osmanlı Devleti'nin hâkimiyet alanını artırmak,

III. İtilaf Devletlerinin Süveyş Kanalı'nı kullanmalarını önlemek,

IV. Osmanlı'nın jeopolitik konumundan faydalanmak

nedenlerinden hangilerinin etkili olduğu söylenebilir?

A) I ve II B) II ve III

C) I, II ve III D) I, III ve IV

6. XX. yüzyılın başlarından itibaren yaşadığımız coğrafyada gerçekleşen bazı savaşların nedenleri aşağıda verilmiştir.

Trablusgarp Savaşı İtalya, Osmanlı Devleti'nin bölge halkını dünya nimetlerinden mahrum bıraktığını ve orada yaşayan insanlara çağdaş yaşam koşulları sağlayacağını iddia ederek 19 Eylül 1911'de Trablusgarp'a asker çıkarttı. Savaş sonunda Trablusgarp İtalya'ya bırakıldı. İtalya buradan Afrika'nın içlerine kadar ulaşarak ham madde temin etme fırsatı buldu.

ABD - Irak Savaşı Amerika Birleşik Devletleri, Irak halkının demokratik haklarının çiğnendiğini ve Irak'a demokrasi getireceği gerekçesi ile 20 Mart 2003'te Irak'a savaş ilan etmiştir. Irak'ta resmî olarak savaş bitmiş olsa da ABD'nin bölgedeki ekonomik çıkarları doğrultusunda hareket edilmektedir.

Rusya - Ukrayna Savaşı Karadeniz limanlarındaki etkinliğini artırmak isteyen Rusya, Slav kökenli Ukrayna halkının siyasi ve ekonomik olarak Batı kültürü ile bütünleşme çabasının kendi iç politikasına zarar verdiği düşüncesi ile 24 Şubat 2022'de Ukrayna'ya savaş ilan etmiştir.

Verilenler birlikte değerlendirildiğinde aşağıdaki yargılardan hangisi söylenebilir?

A) Savaşlar ülkeler arasında silahlanma yarışından kaynaklanmaktadır.

B) Sömürge elde etmek isteyen ülkeler bazı bahanelerle savaş çıkarmışlardır.

C) Yaşanan savaşlar her zaman aynı ülkelerin saldırıları ile başlamaktadır.

D) Savaşların asıl nedeni çok uluslu devletlerdeki bağımsızlık hareketleridir.

CamScanner ile tarandı

7. *Mustafa Kemal Erzurum Kongresi'nde önüne aldığı harita üzerinde Anadolu'nun ve Avrupa'nın genel durumunu açıkladıktan sonra, "Anadolu'da başlatılacak olan Millî Mücadele'nin başarısız olması mümkün değildir. Çünkü savaştan galip ayrılan devletler de çok yorgun ve yeni bir savaşı göze alamazlar. Bu şartlar altında Yunan kuvvetleri ile baş başa kalacağımızı ve kısa sürede ordumuzu toparlayabilirsek onları da denize döküceğimize eminim." demiştir.*

Metinde verilen bilgilerden hareketle aşağıdaki yorumlardan hangisinin doğru olduğu söylenebilir?

A) Mustafa Kemal, Türk milletinin bağımsızlığını kazanacağına inanmıştır.

B) Yunan kuvvetleri savaşı kaybederek Anadolu'yu terk etmişlerdir. Daha almadı

C) İtilaf Devletleri Yunan kuvvetlerini kendi çıkarlarına göre kullanmışlardır.

D) Yeni kurulan düzenli ordu Yunanları mağlup ederek işgali sonlandırmıştır.

Daha gerçekleşmedi

8. Mustafa Kemal, ülkenin sürüklendiği mevcut şartlarda, Sofya'da ataşemiliterlik görevinde kalmak istememiş, faal bir görev verilmesini talep etmiştir. Başkomutan Vekili Enver Paşa'ya yazdığı mektupta "Vatanın müdafaasına ait etkin vazifelerden daha mühim ve yüce bir vazife olamaz. Arkadaşlarım muharebe cephelerinde, ateş hatlarında bulunurken ben Sofya'da ataşemiliterlik yapamam! Eğer, birinci sınıf subay olmak liyakatinden mahrumsam, kanaatiniz bu ise, lütfen açık söyleyiniz." demiştir. Aralık 1914'te yazılan bu mektuptan sonra Kurmay Yarbay Mustafa Kemal, Sofya Askerî Ataşeliğinden, 3'üncü Kolorduya bağlı olan 19'uncu Tümen Komutanlığına atanmıştır.

(https://ataturkansiklopedisi.gov.tr/bilgi/mustafa-kemalin-sofya-ataseminiterligi)

Metinde verilen bilgilerden Mustafa Kemal ile ilgili aşağıdaki çıkarımlardan hangisine ulaşılamaz?

A) Vatansever bir kişi olduğunu ortaya koymuştur.

B) Ülke savunmasında yer almak istemiştir.

C) Daha kolay yapabileceği bir göreve atanmıştır.

D) Askerî yetkililerin tavırlarından şikâyetçidir.

9. Osmanlı Devleti'nin son dönemlerine tanık olan yazarlardan Falih Rıfkı Atay bizzat katıldığı Birinci Dünya Savaşı esnasında yaşadıklarını kaleme aldığı "Ateş ve Güneş" adlı kitabında, "...Son muharebe senelerinde şu iki ismi öğrendik: Cephe ve cephe gerisi. Savaşları ordularla milletler beraber yaptı. Bir hudutta askerin kazandığı şeref, doğan ışık gibi vatanın her tarafına dağıldı. Herkes kuvvetine, zekâsına, işine göre hissesini aldı. Herhangi bir cepheyi bize anlatmak isteyenler, ilk olarak o cephenin gerisinden bahsetmelidir..." ifadelerine yer vermiştir.

(Falih Rıfkı Atay, Ateş ve Güneş, s. 15)

Verilen metinde I. Dünya Savaşı'nda aşağıdakilerden hangisinin önemine vurgu yapılmıştır?

A) Savaş sırasında sivil halkın ordusuna destek verdiğine

B) Osmanlı ordusunun I. Dünya Savaşı'nı kazandığına

C) Savaşların kazanılmasında yalnızca askerlerin etkili olduğuna

D) Savaşın kazanılmasında askerî gücün yeterli olduğuna

10. ABD başkanı Wilson'ın (Vilsın) I. Dünya Savaşı sonunda açıkladığı ilkelerden bazıları aşağıda verilmiştir.

- Yenilen devletlerden toprak ve savaş tazminatı alınmayacaktır.
- Uluslararası sorunların çözülmesi için "Milletler Cemiyeti" kurulacaktır.
- Türklerin çoğunlukta olduğu bölgelere egemenlik hakkı tanınacak ancak Osmanlı Devleti'nde yaşayan azınlıklara da özerklik verilecektir.

Buna göre aşağıdaki çıkarımlardan hangisinde bulunulamaz?

A) Etnik kökene dayalı devletlerin kurulması amaçlanmıştır.

B) Dünya barışının korunması hedeflenmiştir.

C) Sömürgecilik anlayışına karşı çıkılmıştır.

D) Osmanlı'nın toprak bütünlüğü korunmuştur.

T.C. İNKILAP TARİHİ VE ATATÜRKÇÜLÜK TESTİ BİTTİ. DİN KÜLTÜRÜ VE AHLAK BİLGİSİ TESTİNE GEÇİNİZ.

CamScanner ile tarandı

1. Read the situation below and answer the question.

You are going to attend an event, but you don't want to go alone. You want to invite your best friend to the event.

What would you say to invite him/her to the event?

One of your friends invites you to go trekking, but you're not interested in outdoor activities.

What would you say to refuse an invitation by making an excuse?

You want to invite your cousin to a party this weekend, but you don't know if s/he has a plan or not.

What would you say to learn about her/his plans for the weekend?

Which of the following CANNOT be one of the sentences that we can say for any of the situations above?

A) Why not? Can I learn the time of the event?
B) Are you doing anything on Saturday?
C) Sorry! I don't enjoy spending time in nature.
D) How about going to the concert together?

2. Mr. and Mrs. Kaplan decide to go to a restaurant to celebrate their wedding anniversary. Below you can see information about their food preferences and the menus of the restaurants they will go to.

They are fond of vegetable soup.

They prefer eating red meat to white meat.

Cold drinks are their favorites.

They love eating fruit desserts.

Menu 1
~~Chicken Soup~~
~~Fish~~
Lemonade
Pudding

Menu 2
~~Lentil Soup~~
Steak
~~Tea~~
~~Chocolate cake~~

Menu 3
Tomato Soup
Meatball
Coke
Strawberry cake

Menu 4
~~Chicken Soup~~
~~Pasta~~
~~Coffee~~
Baked banana

According to the given information, which menu is suitable for Mr. and Mrs. Kaplan?

A) Menu 1
B) Menu 2
C) Menu 3
D) Menu 4

CamScanner ile tarandı

3. Read the statements below and answer the question.



According to the statements above, who is talking about a cooking method?

A) Rose B) Tony C) Berat D) Asude

4. Read the email below and answer the question.

helen@moreandmore.com
daily routines

Dear Helen,

I hope you are fine. In your last email, you asked me to tell you about my daily routines. Well, a typical day in my life starts at about 6:30 a.m. First, I have breakfast with my family. Then I brush my teeth and get dressed. I leave home at about 7 a.m. I usually go to school by bike. However, if the weather is not nice, my mom takes me to school. I have classes until 1 p.m. After school, I attend a chess club and have a great time there. I get back home at 4 p.m. After doing my homework, I have dinner. In the evenings, I watch my favorite quiz show with my family. We answer the questions together. We also watch funny videos on the Internet. I read a book before I go to bed. I sleep at about 10:30 p.m.

What about you? How do you spend a day? Write me back soon.

Tuğalp

According to the email above, Tuğalp - - - -.

A) has dinner before doing his homework
B) prefers staying in his room in the evenings
C) rides his bike to school every day
D) is keen on playing board games

Diğer sayfaya geçiniz.

CamScanner ile tarandı

5. Hilary and her friends play a game related to friendship. Each of them chooses one of the cards below and answers the question on it. Here are the questions and their answers:

I	II	III	IV
How can you describe your best friend?	What does friendship mean to you?	Which activities do you like doing with your friends?	Do you back your friends up all the time?

Hilary : I enjoy going camping and playing computer games with my mates.
Oscar : Well, he is loyal and punctual. He does all his duties on time.
Betty : To me, friendship means loving, caring and sharing.
Laura : Yes. I am good at telling funny stories and making people laugh.

Whose answer does NOT match any of the questions given on the cards?

A) Hilary's. B) Oscar's. C) Betty's. D) Laura's.

6. Read the conversation below, look at Kevin's plans on Saturday and answer the question.

Molly : Hello, Kevin. I am having a pizza party on Saturday. Would you like to come over?
Kevin : Why not? Can I learn the exact time of the event?
Molly : At 6 o'clock in the garden of our house.
Kevin : ....

Kevin's Plans for Saturday

10-11 a.m.	2-3 p.m.	5-7 p.m.	9-10 p.m.
Surfing on the Net	Doing sports	Visiting an exhibition	Going to a concert

According to the information above, how can Kevin respond to Molly's invitation?

A) That would be great, but I will listen to my favorite band
B) I would love to, but I am planning to spend time online
C) I'm sorry, but I'm going to attend an art event then
D) Thanks for the invitation, but I have volleyball training

7. Below, you see a conversation between a teacher and his students.



Which of the following CANNOT be the teacher's question?

A) What are your hobbies?
B) What do you like doing in your free time?
C) Which activities do you enjoy doing?
D) What kind of activities are unbearable?

CamScanner ile tarandı

8. Emir is taking an English exam. Below, you can see a part of the exam.

Part A. Answer the following questions according to yourself.

1. How often do you go to the theatre?
2. What type of books do you read?
3. What do you do in the evenings?
4. How do you go to school?

Which of the following CANNOT be one of the answers that Emir will give to any of the questions in the exam?

A) On foot. My house is close to the school.
B) Mostly hip hop. I find it terrific.
C) I do my homework and play online games.
D) Twice a week. I enjoy seeing new plays.

9. Read the conversation below and answer the question.



How many people refuse the invitation by giving reasons?

A) 1 B) 2 C) 3 D) 4

10. English teacher Mrs. Smith conducts a survey about the music preferences of young people at her school. Here are the results of the survey;

Teenagers are least interested in classical music.

Rock music is as popular as jazz music among teens.

Most of the teenagers prefer listening to pop music.

According to the results of the survey, which of the following is CORRECT?



TEST BİTTİ. CEVAPLARINIZI KONTROL EDİNİZ.

CamScanner ile tarandı

1.

Kaderle İlgili Kavramlar

	Tanımı	Rızık	Emek	Ömür	Ecel	Tevekkül
1	Allah'a (c.c.) güvenmek, O'na dayanmak					✓
2	Canlıların dünyadaki yaşam süresi			✓		
3	Allah'ın (c.c.) canlılara verdiği nimetler	✓				
4	Yaşam için verilen sürenin sona ermesi				✓	
5	Bir işin yapılması için harcanan güç		✓			

Tablodaki etkinlik ile ilgili seçeneklerdeki ifadelerden hangisi doğrudur?

A) 3 numaralı tanım yanlış eşleştirilmiştir.
B) 2 ve 4 numaradaki işaretler yer değiştirmelidir.
C) Hepsi doğru işaretlenmiştir.
D) İki tane yanlışlık yapılmıştır.

Yaam süresinin sona erdii ana, zamana ecel denir.

2. **Aşağıdaki cümlelerden hangisi Ayetel Kürsi'nin anlamı içinde yer almaz?**

A) Allah'tan başka ilah yoktur.
B) Onlar (namazlarıyla) gösteriş yaparlar.
C) O daima diridir, bütün varlığın idaresini yürütendir.
D) Gerçekten yüce ve büyük olan yalnızca O'dur.

bu ayet sadece Allah'n varl ve birliinden, esiz yüceliinden bahseder.

3. **Peygamber Efendimizin aşağıdaki hadislerinden hangisi paylaşma ve yardımlaşma davranışlarıyla ilişkilendirilemez?**

A) "Komşusu aç iken tok yatan bizden değildir."
B) "Yetimin başını okşa, yoksulu doyur."
C) "Güçsüzün incindiği ve hakkını alamadığı bir toplum yücelemez."
D) "İnsanların en hayırlısı, insanlara en fazla yararı dokunandır."

4. **Zengin Müslümanların sahip oldukları mal ya da paranın belirli bir miktarını yılda bir defa Allah rızası için ihtiyaç sahiplerine vermeleri şeklinde yerine getirilen ibadet aşağıdakilerden hangisidir?**

A) Zekât
B) Hac
B) Oruç
D) Sadaka

belirlenmi bir miktar(krkta bir)

5. **Zekât ibadeti,**

I. Hicretin ikinci yılında farz kılınmıştır.
II. Mal ile yapılan bir ibadettir.
III. Sadece ticaret mallarından verilir.
IV. Kur'an-ı Kerim'de emredilmiştir. farz

Numaralanmış ifadelerden hangisi yanlıştır?

A) I B) II C) III D) IV

C adaletle ilgili

para, altn, hayvanlar, madenler ve toprak ürünlerinden de verilir

CamScanner ile tarandı

6. Gelgit, bir gök cisminin başka bir gök cismine uyguladığı kütle çekimi nedeniyle her iki cisimde meydana gelen şekil bozulmaları demektir. Ay ve Güneş'in Dünya'ya uyguladıkları çekim kuvvetleri nedeniyle deniz yüzünde ve özellikle ana denizlerde su yükselir ya da alçalır. Gelgit karada da oluşabilir. Ancak denizlerde oluşan gelgitler genelde hepimizin bildiği bir durumdur. Eğer Ay, Dünya'ya daha yakın olsaydı gelgit olayları daha etkili ve yıkıcı olurdu. Oysa Yüce Allah her şeyde olduğu gibi burada da bir ölçü ve denge belirlemiştir.

Metindeki bilgilerden hareketle,

I. Ay'daki çekim kuvvetinin Dünya'dakinden daha büyük olduğu

II. Dünya'nın dengesinin insanlar tarafından bozulduğu

III. Gelgit olayının Allah'ın (c.c.) fiziksel yasalarına göre gerçekleştiği

yargılarından hangisine veya hangilerine ulaşılabilir?

A) Yalnız I
B) Yalnız III
C) I ve III
D) II ve III

ayn ve günein hareketleri fiziksel yasalara örnektir

7. Allah (c.c.) kâinattaki her varlığa bir görev yüklemiş, onlara bir kader tayin etmiştir. Ayrıca kâinattaki her şey bir ölçü, düzen ve plana göre hareket eder. Her varlığın bir yaratılış amacı vardır. Amaçsız ve başıboş hiçbir nesne yoktur. Her şey Allah'ın (c.c.) ilmi dâhilindedir. Gök cisimleri, bitkiler, insanlar, hayvanlar, kuşlar, mikroskobik canlılar, cansız varlıklar... Hepsinin evrende bir yeri ve amacı vardır.

Aşağıdakilerden hangisi paragraftan çıkarılabilecek bir sonuç değildir?

A) Zamanı gelince her varlık yok olacaktır.
B) Allah her şeyi bir ölçüye göre yaratmıştır.
C) Evrenin işleyişinde her varlığın bir görevi vardır.
D) Hiçbir varlık amaçsız yaratılmamıştır.

8. İnsanoğlu dünyada işlediği eylemlerden dolayı Allah'a (c.c.) karşı sorumludur. Çünkü Yüce Allah insana seçme, tercih etme özgürlüğü vermiştir. Buna göre insan iyi ile kötü, doğru ile yanlış vb. eylemler arasında tercihte bulunabilir.

Metinde aşağıdaki kavramlardan hangisi ile ilgili ifadeler yer almaktadır?

A) Külli irade
B) Tevekkül
C) Rızık
D) Cüzi irade

insann tercih etme yetisine irade denir

9. "Kıyamet gününde insanoğlu şu beş şeyden hesaba çekilmedikçe Rabbinin huzurundan bir yere kımıldayamaz: Ömrünü nerede ve nasıl geçirdiğinden, gençliğini nerede yıprattığından, malını nereden kazanıp nerede harcadığından, bildiği ile amel edip etmediğinden."

Hz. Muhammed s.a.v.

Bu hadiste aşağıdakilerden hangisinin vurgulandığı söylenebilir?

A) Allah'ın (c.c.) yarattığı canlılara rızık verdiği
B) İnsanın Allah'a (c.c.) karşı sorumlu olduğu
C) Ömür ve ecelin kaderle ilgili kavramlar olduğu
D) İnsanın biyolojik yasalara göre yaşadığı

insan kendisine, yaratana ve çevresine kar sorumludur

10. *"Allah buyurdu: Seni kardeşinle destekleyeceğiz ve size öyle bir güç vereceğiz ki bu sayede size erişemeyecekler. Mucizelerimizle siz ve size tâbi olanlar üstün geleceksiniz."*

(Kasas suresi, 35. ayet)

Hz. Musa'nın (a.s.) hayatı ile ilgili bu ayetteki altı çizili kısımda bahsi geçen kişi aşağıdakilerden hangisidir?

A) Hz. Şuayb (a.s.)
B) Hz. Nuh (a.s.)
C) Hz. Harun (a.s.)
D) Hz. Musa (a.s.)

Hz. Musa'nn kardei

DİN KÜLTÜRÜ VE AHLAK BİLGİSİ TESTİ BİTTİ. YABANCI DİL (İNGİLİZCE) TESTİNE GEÇİNİZ.

CamScanner ile tarandı